AUTOMATHS974 6.08

Devoir à faire sur temps libre.
Avec l'aide du guide de survie, accède au modèle et n'oublie pas de te corriger.

GUIDE DE SURVIE — CORRECTION

C3 023 — Placer une fraction sur un axe gradué

©maths974.fr

Décomposer comme somme d'un entier et d'une fraction inférieure à 1, placer sur l'axe et encadrer par des entiers consécutifs.

$\frac{11}{7}$ = ... + $\frac{...}{...}$

$\frac{16}{7}$ = ... + $\frac{...}{...}$

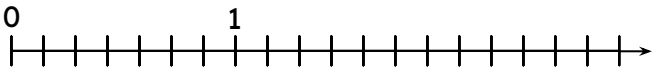

< $\frac{11}{7}$ < < $\frac{16}{7}$ <

C3 119 — Table de multiplication (jusqu'à 9)

©maths974.fr

1. Entoure les nombres présents dans la table de 7 :
   14 - 27 - 49 - 47 - 37 - 36 - 35 - 77 - 23 - 56

2. Entoure les nombres présents dans la table de 8 :
   18 - 32 - 68 - 58 - 28 - 16 - 48 - 24 - 40 - 54

3. Entoure les nombres présents dans la table de 9 :
   18 - 19 - 49 - 27 - 87 - 81 - 35 - 36 - 99 - 72

C3 068 — Aire d'un rectangle

©maths974.fr

Calculer l'aire de ces 4 figures :

1) c = 10 m

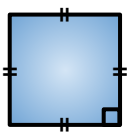

2) l = 5 cm

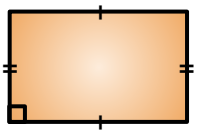

L = 9 cm

3) l = 3 m

L = 6 m

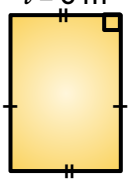

4) c = 8 km

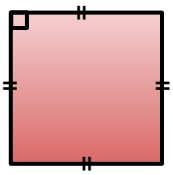

©MATH974.FR

C3 110 — Connaître l'effet d'une symétrie axiale

©maths974.fr

Colorie les cases pour que (d) soit un axe de symétrie.

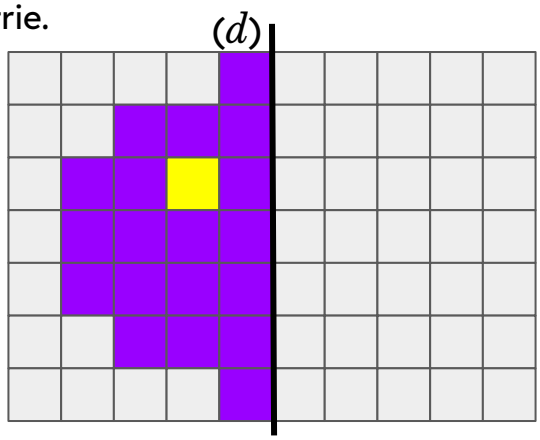

C3 — Résoudre un problème

©maths974.fr

Pour faire sa tarte, Aladin achète des pommes pour un montant de 5,90€ , un paquet de farine à 1,50€ et une brique de crème à 4,10 € .

Il donne un billet de 20 € à l'épicier.

Combien celui-ci va-t-il lui rendre ?

C3 — QCM 6ème - N°8 — Entoure la bonne réponse

©maths974.fr

Q1. 3,2 < ... < 3,4
a) 3,41 b) 3,21 c) 4,3

Q2. 52 cm = ... mm
a) 5,2 mm b) 0,52 mm c) 520 mm

Q3. 21 + ... = 100
a) 81 b) 79 c) 69