Secretaria de Educación Pública
Escuela Primaria Urbana o Rural
"https://materialeducativo.org/"
C.C.T.: XXXXXXXX Zona Escolar: XX Sector: XX
Ciclo Escolar: 2021 – 2022
Grado: 2° Grupo: X

EXAMEN PARA EL PERIODO DE RECUPERACIÓN O REFORZAMIENTO

Nombre del alumno(a): _____

Lugar y fecha: _____

Nombre del maestro: _____

Nombre del padre de familia o tutor:

Asignatura	Reactivos	Aciertos	Promedio	Firma del padre o tutor
Español	30			
Matemáticas	30			
Exploración de la Naturaleza y la Sociedad	20			
Promedio				

ESPAÑOL

1.- ¿Dónde puedes consultar el significado de una palabra desconocida?

- ◯ En un diccionario.
- ◯ En la sección de noticias del periódico.
- ◯ En un programa de la televisión.

2 a la 4. Cambia una o más letras de las siguientes palabras para formar una nueva. Por ejemplo: *l*odo – *c*odo.

piña	melones	manzana
_____	_____	_____

5 a la 10.- Encierra con color rojo los sustantivos y con azul a los adjetivos en cada enunciado.

- Los puestos del mercado son coloridos.
- Las historias del pueblo son muy emocionantes.
- Las frutas están deliciosas.

11 a la 16.- Escribe 2 palabras que rimen con las siguientes:

fresa	*mercado*	*manzana*
_____	_____	_____

_

_____ _____ _____
_

17 a la 22.- Completa correctamente las palabras usando la “c” o la “s” según corresponda.

__ __ rco

pe __ __ ra

__ __ lla



__ __ po



__ __ bolla

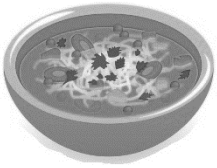

__ __ pa

23 a la 27. Encierra los que sean nombres propios.

lago	Pátzcuaro	Yunuén
cielo	pueblo	Melquiades
García	árboles	escalera
juguetes	Quiroga	tamales

28 a la 30. Une las siguientes frases para formar juegos de palabras:

Dos gatos tuertos y uno renegado	te platico que el muy pingo a la iglesia se fue a casar.
Si buscas a mi tío Tingo vas a tener que esperar	conocieron a dos gatas tercas y una despeinada.

Érase una vez por andar trepando árboles

una gallina clueca la pata le quedó chueca.

MATEMÁTICAS

A continuación, se presentan los precios de algunos juguetes que don Lupe vende en el mercado. Obsérvalos bien y contesta lo que se te pide.

1.- Ordena los precios de menor a mayor:

_____, _____, _____, _____, _____, _____, _____

2.- La mamá de Mateo le compró por su cumpleaños un tren y un tambor ¿Cuánto gastó en total? _____.

3.- Laura se compró una pelota y un oso. Si pagó con 300$ ¿Cuánto le dieron de cambio? _____.

4.- Carlos tiene 225$. ¿Le alcanza para comprar un helicóptero y una pelota? _____.

5.- ¿Cuánto le sobra o le falta? _____.

6 y 7.- Jorge compró 2 juguetes diferentes. Si en total pagó 928 ¿cuáles juguetes compró? _____ y _____.

8.- Con las siguientes tarjetas forma 5 cantidades diferentes.

2 3 7 → 237 _____, _____, _____, _____, _____ y _____.

Observa los precios de algunos juguetes que vende don Melquiades en su puesto, después contesta lo que se te pide.

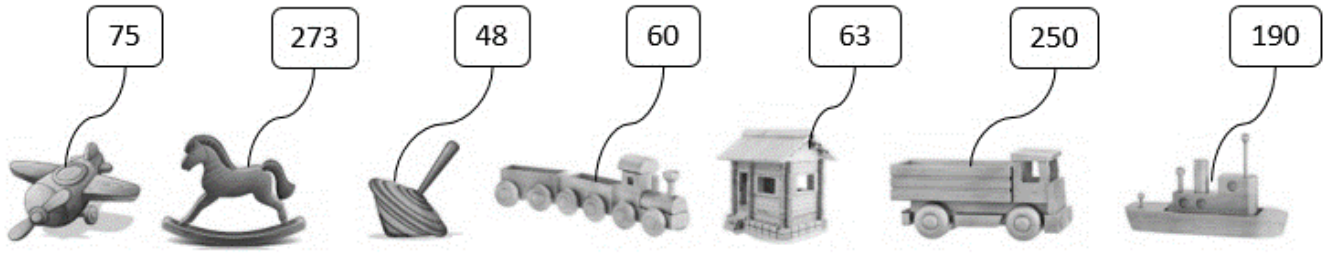

9 a la 10.- Manuel tiene $ 123 para comprar 2 juguetes. Escribe los dos pares de juguetes que se puede llevar.

_____ y _____.

_____ y _____.

11.- Por dos juguetes que compró Elisa pagó el mismo precio del camión. ¿Cuáles fueron esos juguetes?

_____ y _____.

12.- Leonardo tiene $ 115 y quiere comprar un barco. ¿Cuánto dinero le falta? _____

13.- Areli quiere comprar el trompo y la casita, si tiene $ 100 ¿Le alcanza para comprar ambos?

_____

14.- ¿Cuánto le sobra o le falta? _____.

15.- Carlos pagó un caballo con $ 300 ¿Cuánto le dieron de cambio? _____.

16.- Lucía quiere saber cuánto es más caro el avión que el trompo. Encierra la operación que le ayude a conocer el resultado.

75 + 48= 75 – 48 = 78 + 45 = 48 – 75 =

17 a la 21.- Realiza las siguientes operaciones mentalmente:

25 + 15 = 79 – 29 = 34 + 22 =

125 – 20 = 68 + 12 =

22.- Al puesto de doña Tere llegó un cargamento de naranjas. Cada costal tiene 100 piezas, cada caja 10, cada bolsa 5 y algunas frutas llegaron sueltas. ¿Cuántas naranjas hay en total?



Hay _____ naranjas.

23 a la 27.- Observa los precios por kilo de las frutas que venden en el mercado, después contesta las preguntas.

- Naomi compró 1 kilo de mango, 2 de fresa y 2 de manzana. ¿Cuánto pagó? _____.
- Ariana compró 1 kilo de uva y 1 de piña. ¿Cuánto tuvo que pagar? _____.
- ¿Cuánto habrá pagado Manuel por 2 kilos de sandía? _____.
- ¿Cuánto pagó Luis por un kilo de manzana y 3 de mago? _____.
- ¿Cuánto se debe de pagar por 3 kilogramos de fresa? _____.

28 a la 30.- Completa las sucesiones.

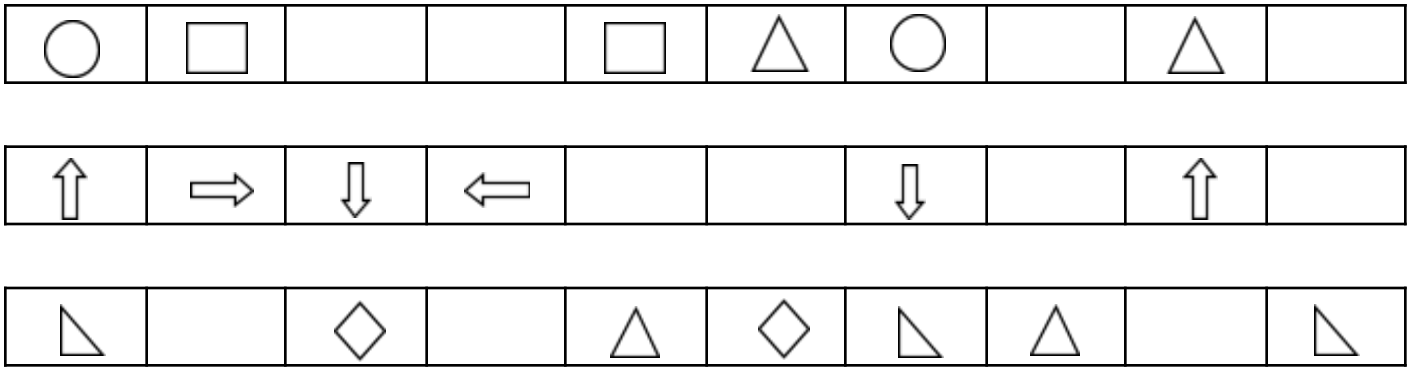

CONOCIMIENTO DEL MEDIO

1 a la 3. Encierra los alimentos que te ayudan a cuidar tu salud.

4 a la 9.- Une cada sentido con las actividades que los pueden perjudicar.

	Escuchar música con volumen alto.
vista	
	Tocar cosas muy calientes sin protección.
	Introducir hisopos u otros objetos para empujar la cerilla.
oído	
	Mirar directamente hacia el sol.
tacto	Estar muchas horas frente a la televisión.
	Tomar objetos ásperos que puedan raspar o cortar.

10 a la 15.- Encierra los alimentos como se indica.

Amarillo — Frutas y verduras.
Verde — Cereales y tubérculos.
Rojo — Leguminosas y alimentos de origen animal.



16 a la 19.- Une cada elemento con su descripción.

Luna

Sol

estrellas

Tierra

Es una estrella con luz propia. Su energía llega a la tierra en forma de luz y calor.

Es el planeta donde vivimos, el cual gira alrededor del Sol.

Cuerpos celestes con luz propia. Nuestro Sol es una de ellas.

Satélite natural de la tierra que gira a su alrededor. Es posible verla por las noches.

20.- ¿En qué fecha se conmemora el día de la bandera nacional?

- ◯ 27 de septiembre.
- ◯ 5 de mayo.
- ◯ 24 de febrero.

Dibuja la bandera nacional

MATERIAL EXCLUSIVO PARA SU DESCARGA EN:

https://materialeducativo.org/

&

https://educacionprimaria.mx/

Más material educativo gratis:

https://www.facebook.com/educacionprimariamx/

&

https://www.facebook.com/materialeducativomx/

PROHIBIDO COMPARTIR EL ARCHIVO EN GRUPOS O PÁGINAS DE FACEBOOK O WHATSAPP

DESCARGAR DESDE EL ENLACE OFICIAL.

Las imágenes, textos, preguntas y el contenido de este examen pertenecen a sus respectivos dueños, solo se hicieron modificaciones para su correcta utilización en el aula. Este material se comparte de manera gratuita y sin fines de lucro.