سلطنة عُمان

وزارة التربية والتعليم

مديرية التربية والتعليم بمسقط

مدرسة الفارابي الخاصة

الاختبار القصير الثاني في مادة الدراسات الاجتماعية للصف السادس لفصل الدراسي الثاني للعام الدراسي 2024/2025

اسم الطالب : .....

أولا :- الأسئلة الموضوعية (خمس درجات)

اختر الإجابة الصحيحة بوضع دائرة حول رمز الإجابة الصحيحة من بين البدائل المعطاه

1 - العام الهجري الذي انتهت فيه الدولة الأموية :

أ - 122 ب - 132 ج - 142 د - 152

2 - المدينة التي يقع في المسجد الموجودة في الصورة المقابلة :

أ - بغداد ب - دمشق ج - القدس د - صحار

3 - العالم العُماني الذي ألف الكتاب في الصورة المقابلة :

أ - كعب بن معدان ب - الخليل بن أحمد ج - جابر بن زيد د- أبوصفرة العتكي

4 - الجهة التي تقع فيها دمشق بالنسبة للبحر المتوسط :

أ - الشرق ب - الغرب

ج- الجنوب د - الشمال

5 - الشكل الصحيح الذي يمثل معلومات عن قتيبة بن مسلم الباهلي :

أ-
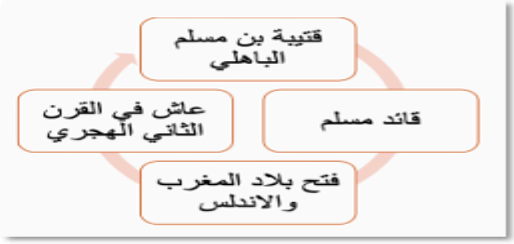

ب-

ج-

د-

ثانيا :-

الأسئلة المقالية (10 درجات)

6 - أكمل خريطة المفاهيم التالية :

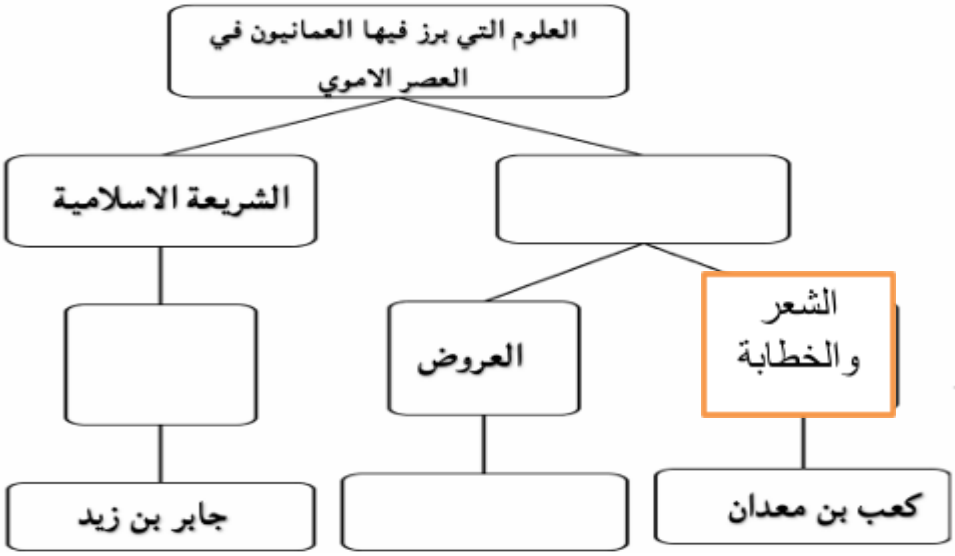

7- بالاستعانة بالصور التالية اربط كل صورة بالمجال المناسب ثم اذكر أثر هذا الإنجاز على الدولة الأموية

الاقتصادي اثر الإنجاز (.....)

العسكري اثر الإنجاز (.....)

8- اقراء الفقرة التي أمامك وأجب عن الأسئلة الآتية :

"استمر حكم الدولة الاموية ٩٠ عاما وعلى الرغم من المنجزات التي حققتها فقد بدأت بالضعف والانهيار بسبب مجموعه من العوامل منها ظهور الفرق المعارضة للحكم الاموي ، النزاع على الحكم بين أبناء البيت الاموي ، واتساع الدولة وصعوبة الاتصال بين اجزائها "

أ - من خلال قراءتك للفقرة السابقة صنف أسباب سقوط الدولة الأموية إلى سياسية ، وإدارية ، اجتماعية من خلال المخطط التالي :

الادارية	.....
السياسية	.....
الاجتماعية	.....

9 - ادرس خريطة الفتوحات الإسلامية وأجب عن الأسئلة الآتية :

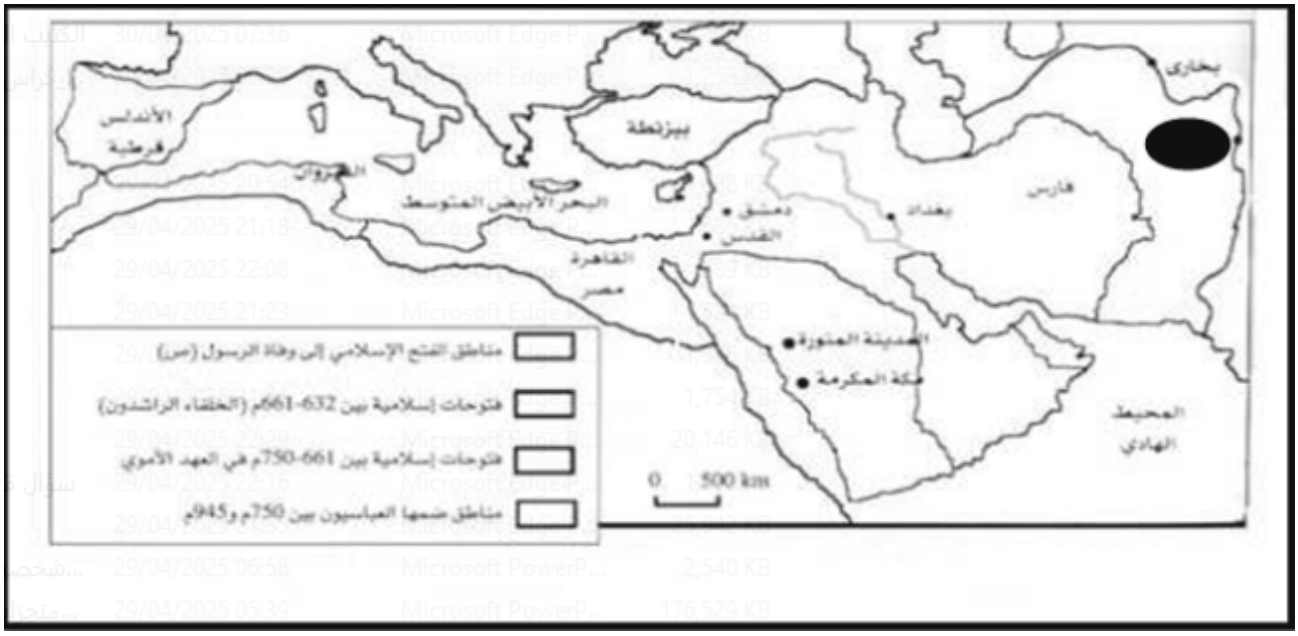

أ - ضع دائرة على عاصمة الدولة الأموية

ب - علل اعتناق الإسلام أهل المنطقة المشار إليها بالرمز

.....

.....