SiSTEMA REPRODUCTOR FEMENINO Y MASCULINO

CONSIGNA:

- Abrir un archivo word y copiar las consignas e imàgenes presentes en este documento.
- Observà las imàgenes y describe brevemente las caracterìsticas y funciones de cada òrgano presente en cada imagen.

Sistema genital femenino

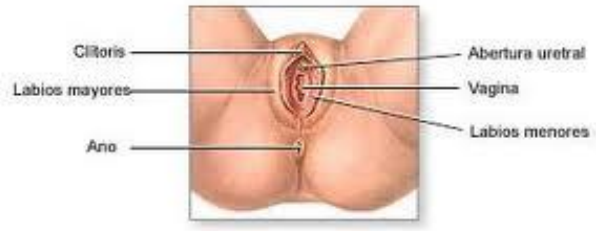

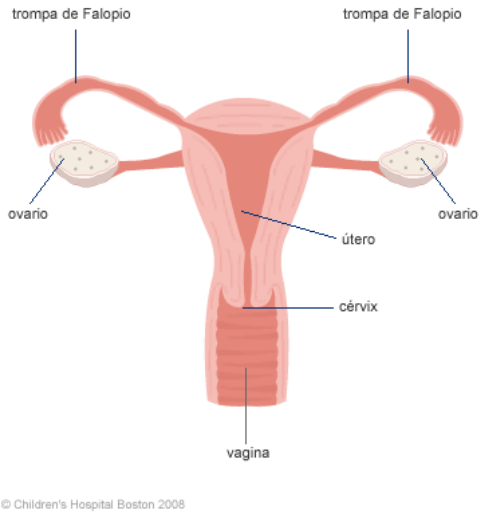
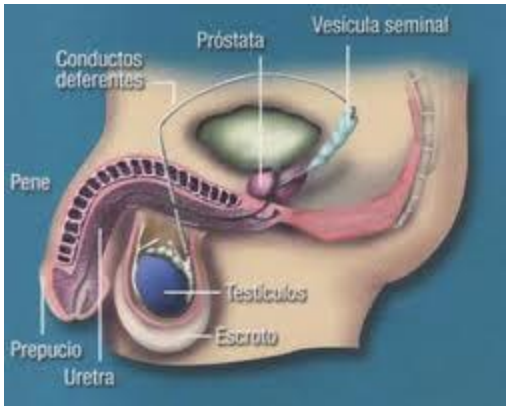
Sistema genital masculino