PEMERINTAH KABUPATEN ...
KORWIL BIDANG PENDIDIKAN DAN KEBUDAYAAN
SD NEGERI . . . .
PENILAIAN AKHIR SEMESTER 1
TAHUN PELAJARAN ...

Tema 3 : Benda di Sekitarku Kelas : III (Tiga)
Hari/Tanggal : Selasa, ... Waktu : 07.30 – 09.00

Nama : .....
No. Absen : .....

PPKn	BI	MAT	SBdP

I. Berilah tanda silang (x) pada huruf a, b, atau c pada jawaban yang benar!

1. Untuk mendapatkan keputusan bersama, hendaknya kita melakukan ....
   a. Kerjasama
   b. Musyawarah
   c. Kerjabakti
2. Salah satu ciri musyawarah yang baik yaitu ....
   a. Memaksa orang lain mengikuti pendapat kita
   b. Tidak memperdulikan pendapat orang lain
   c. Tidak memaksakan pendapat pada orang lain
3. Di bawah ini peran yang sesuai dengan tugasnya yaitu ....
   a. Kepala Sekolah bertugas menjaga kebersihan sekolah
   b. Petugas kebersihan bertugas memimpin sekolah
   c. Guru Kelas bertugas mengajar di kelas
4. Contoh peran anak saat di rumah yaitu ....
   a. Membantu pekerjaan orang tua
   b. Menonton televisi dan bermain
   c. Menyalakan musik dengan keras
5. Sikap bersatu di lingkungan sekolah dapat dilakukan dengan cara ....
   a. Meminjam alat tulis tanpa izin
   b. Membantu teman dalam mengisi soal ujian
   c. Membersihkan lingkungan sekolah bersama-sama
6. Gambar di bawah ini yang merupakan contoh sikap bersatu adalah ....
   a.
   b.
   c.
7. Yang merupakan contoh peristiwa penguapan yaitu ....
   a. Turunnya butiran salju karena cuaca yang dingin
   b. Baju basah menjadi kering setelah dijemur di bawah terik matahari
   c. Kapur barus jika diletakkan di dalam lemari semakin lama semakin kecil
8. Bagian luar gelas yang berisi air dingin muncul titik-titik air. Hal ini merupakan contoh perubahan wujud benda yang disebut ....
   a. Melebur b. Menguap c. Mengembun
9. Yang merupakan sifat benda cair adalah ....
   a. Bentuknya berubah sesuai wadah, tidak dapat digenggam
   b. Bentuknya tetap walaupun wadahnya berubah, tidak dapat digenggam
   c. Bentuknya tetap walaupun wadahnya berubah, dapat digenggam
10. Dayu membeli jeruk seberat 5 kg 150 gram. Berat jeruk yang dibeli Dayu sama dengan ....
    a. 325 gram b. 5.150 gram c. 32.500 gram
11. Jam yang menunjukkan pukul 03.10 adalah....

a. b. c.

12. Hujan mulai turun sejak pukul 07.00 dan berhenti pukul 09.30. Lamanya hujan turun adalah ….
    a. 1 jam
    b. 1 jam 30 menit
    c. 2 jam 30 menit
13. Warna primer adalah warna yang terdiri dari ....
    a. Merah, putih, kuning b. Biru, hijau, kuning c. Merah, kuning, biru
14. Salah satu unsur karya seni adalah garis. Salah satu contoh garis yang bisa digunakan yaitu ….
    a. Coklat b. Segiempat c. Vertikal
15. Alat musik yang tidak bernada disebut alat musik ….
    a. Ritmis b. Dinamis c. Harmonis
16. *Ada sebuah benda, slalu menunjuk saja*
    Tidak bertangan tidak berkaki tetapi dapat berjalan
    Lagu di atas berjudul ....
    a. Teka-teki b. Barisan Musik c. Sebuah Benda
17. Dalam tarian, selain gerakan tangan ada juga gerakan ….
    a. Cepat b. Lambat c. Langkah kaki
18. Gerakan angin sepoi-sepoi merupakan contoh gerakan yang ….
    a. Kuat b. Lemah c. Cepat
19. Sebelum diletakkan ke dalam lemari, sebaiknya baju . . . . dengan rapi.
    a. Dijemur b. Dilipat c. Dicuci
20. Gambar di bawah ini merupakan bagian dari cara melipat ….
    a. Baju kaos
    b. Celana
    c. Handuk

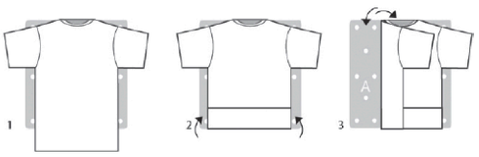

II. <u>Isilah titik – titik di bawah ini dengan jawaban yang benar !</u>

21. Dalam musyawarah, setiap anggota boleh menyampaikan ....
22. Kegiatan gotong-royong dapat membuat pekerjaan yang sulit menjadi ....
23. Menjaga kebersihan lingkungan sekolah adalah peran dari ....
24. Pembagian tugas membuat pekerjaan menjadi ....
25. Menyublim adalah perubahan wujud benda padat menjadi ....
26. 3 kg + 700 gram = . . . gram
27. Karya seni merupakan gabungan dari garis, bentuk, dan ....
28. Campuran warna merah dengan kuning akan menjadi warna ….
29. Gerakan tari akan lebih bagus apabila diiringi dengan ....
30. Gambar di bawah ini merupakan contoh tarian anak dengan gerakan ....



III. <u>Jawablah pertanyaan berikut dengan tepat !</u>

31. Tulislah 2 contoh peran anak saat di rumah!
    Jawab.
32. Tulislah proses terjadinya hujan berdasarkan gambar di bawah ini!

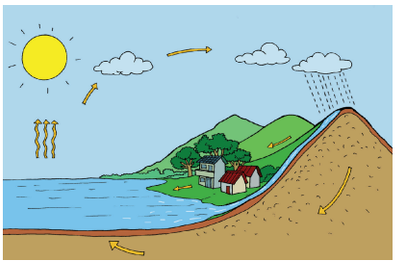

33. Jarak rumah Beni ke sekolah adalah 4 km 350 meter. Berapa meter jarak Rumah Edo ke sekolah?
    Jawab.
34. Tulislah 3 contoh alat musik Ritmis!
    Jawab.
35. Urutlah gambar langkah-langkah melipat baju kaos di bawah ini!

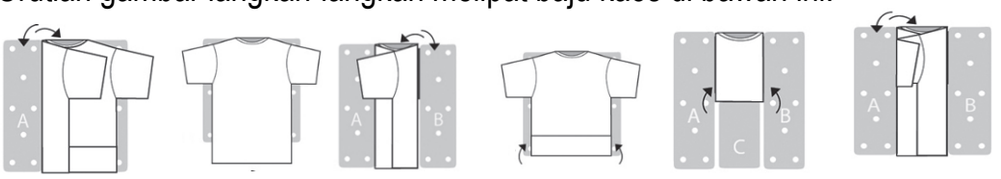

A B C D E F

Jawab.

KUNCI JAWABAN PENILAIAN AKHIR SEMESTER (PAS)

TEMA 3	**Benda di Sekitarku**
KELAS / SEMESTER	**III (Tiga) / Ganjil**
TAHUN PELAJARAN	**2022/2023**

I. PILIHAN GANDA

1. B	6. C	11. A	16. A
2. C	7. B	12. C	17. C
3. C	8. C	13. C	18. B
4. A	9. A	14. C	19. B
5. C	10. B	15. A	20. A

II. ISIAN

21. Pendapat
22. Mudah
23. Penjaga Sekolah
24. Ringan/mudah
25. Gas
26. 3700
27. Warna
28. Jingga
29. Lagu/musik
30. Berputar

III. URAIAN

31. Peran anak dalam keluarga :
    - Membantu pekerjaan orang tua,
    - Merapikan tempat tidur di pagi hari. (dan lain-lain)
32. Proses terjadinya hujan :

    Air laut, danau dan sungai menguap karena panas matahari. Uap air berkumpul di udara menjadi awan. Awan mengalami pengembunan dan menjadi titik-titik air. Kemudian titik-titik air turun ke bumi menjadi hujan.
33. 4 km 350 meter = 4000 m + 350 m

    = 4350 m

    Jarak rumah Edo ke sekolah adalah 4350 meter

34. Contoh alat music ritmis yaitu : gendang, kastanyet, sambal (dan lain-lain)
35. Urutan melipat baju berdasarkan gambar :

    B – D – A – C – F – E