Una fracción es una parte de un entero y está compuesta básicamente por dos elementos.

Numerador: Nos indica cuantas partes utilizamos de un entero.

$\frac{1}{2}$

Denominador: Nos indica cuantas partes hemos dividido.

Texto creado con fines didácticos MEAD.

ESCRIBE cómo se pronuncia cada una de las siguientes fracciones. Puedes apoyarte en tu libro de Desafíos Matemáticos páginas 70 a la 73.

$\frac{2}{4}$ _____

$\frac{5}{8}$ _____

$\frac{3}{10}$ _____

IDENTIFICA qué fracción representa la parte sombreada de cada figura. Relaciona con líneas de diferentes colores. Observa el ejemplo.

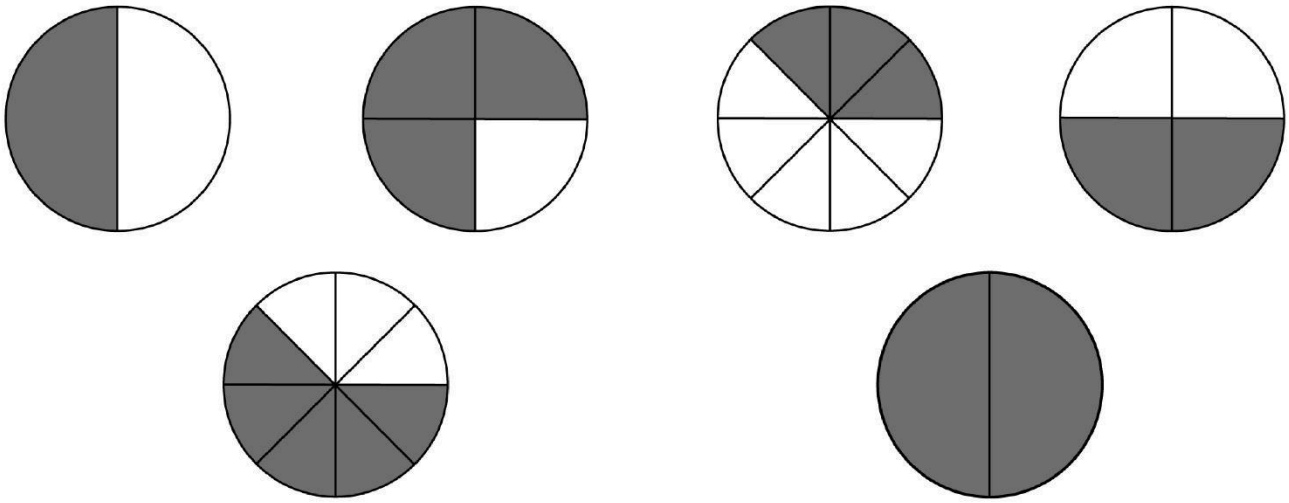

$\frac{5}{8}$ $\frac{2}{2}$ $\frac{3}{4}$ $\frac{3}{8}$ $\frac{1}{2}$ $\frac{2}{4}$

REPRESENTA la siguiente ilustración como se indica.

Fracción escrita	Ilustración	Fracción
Cinco octavos	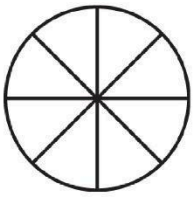	$\frac{\quad}{\quad}$

Material Didáctico De Apoyo / Tercer Grado / Semana 29 / Matemáticas / Anexo 02

Una fracción es una parte de un entero y está compuesta básicamente por dos elementos.

Numerador: Nos indica cuantas partes utilizamos de un entero.

$\frac{1}{2}$

Denominador: Nos indica cuantas partes hemos dividido.

Texto creado con fines didácticos MEAD.

ESCRIBE cómo se pronuncia cada una de las siguientes fracciones. Puedes apoyarte en tu libro de Desafíos Matemáticos páginas 70 a la 73.

$\frac{2}{4}$ _____

$\frac{5}{8}$ _____

$\frac{3}{10}$ _____

IDENTIFICA qué fracción representa la parte sombreada de cada figura. Relaciona con líneas de diferentes colores. Observa el ejemplo.

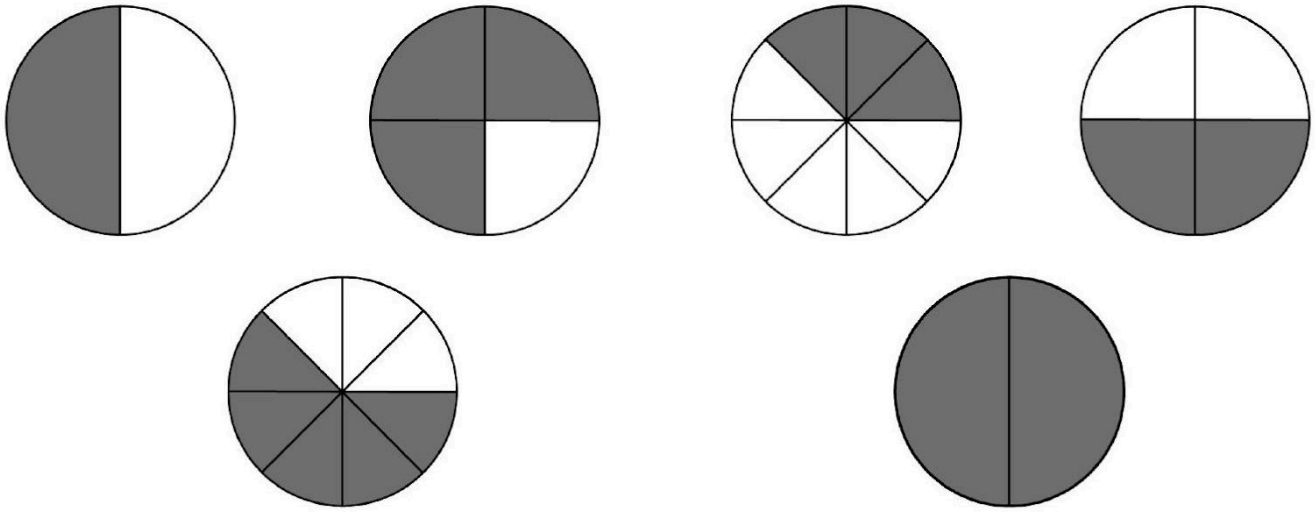

$\frac{5}{8}$ $\frac{2}{2}$ $\frac{3}{4}$ $\frac{3}{8}$ $\frac{1}{2}$ $\frac{2}{4}$

REPRESENTA la siguiente ilustración como se indica.

Fracción escrita	Ilustración	Fracción
Cinco octavos	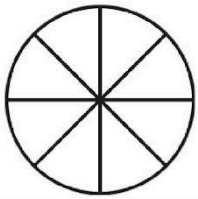	$\frac{\quad}{\quad}$

VISITA:

https://materialeducativo.org/

&

https://materialeseducativos.mx