SUMATIF TENGAH SEMESTER II (STS)
TAHUN PELAJARAN 2022/2023

Mata Pelajaran	**:Matematika**	**Nama**	**: .....**
Hari/Tanggal	**: .....**	**Kelas**	**: .....**
Waktu	**: .....**	**No Absen**	**: .....**

I. **Berilah tanda silang (x) padahuruf a,b, atau c yang merupakan jawaban paling benar!**

1. Kelereng memiliki bentuk yang sama dengan…
   a. Bola
   b. Kerucut
   c. Kubus
2. Contoh benda yang berbentuk balok adalah…
   a. Bola basket
   b. Tempat pensil
   c. Kipas angin
3. Bagian runcing diujung pensil berbentuk…
   a. Kubus
   b. Balok
   c. Kerucut
4. Perhatikan gambar berikut ini!

Gambar diatas merupakan bangun ruang yang disebut dengan…
   a. Kubus
   b. Balok
   c. Limas

Gambar berikut untuk soal nomor 5 sampai 8

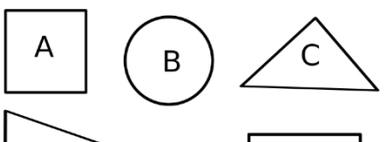

5. Gambar A adalah menunjukkan bangun ….
   a. segitiga
   b. segiempat
   c. segilima
6. Gambar B adalah menunjukkan bangun ….
   a. Lingkaran
   b. Segiempat
   c. segitiga
7. Gambar C adalah menunjukkan bangun ….
   a. segitiga
   b. segiempat
   c. lingkaran
8. Bangun segitiga ditunjukkan gambar ….
   a. A dan B
   b. C dan D
   c. A dan E
9. Segiempat mempunyai sisi sebanyak…
   a. 3
   b. 4
   c. 5
10. Bangun lingkaran mempunyai sisi sebayak…
    a. 1
    b. 2
    c. 3
11. Bangun yang mempunyai tiga sisi dinamakan…
    a. Lingkaran
    b. Segitiga
    c. segilima

Perhatikan gambar dibawah ini untuk mengisi soal nomor 12 sampai 14

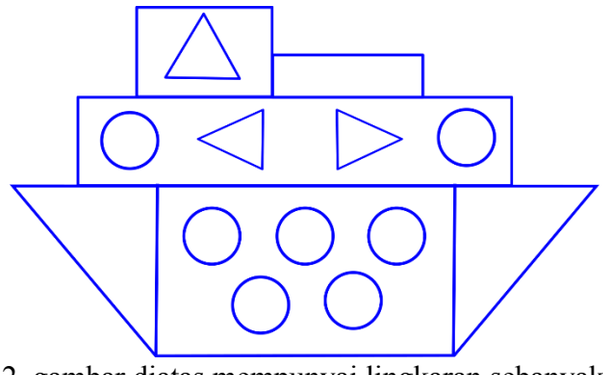

12. gambar diatas mempunyai lingkaran sebanyak…

a. delapan
b. tujuh
c. Sembilan

13. Banyak bangun segiempat pada gambar diatas adalah….
    a. Empat
    b. Lima
    c. Tiga
14. Jumlah bangun segitiga pada gambar diatas adalah….
    a. Empat
    b. Enam
    c. Lima
15. Luna minum susu kaleng, susu keleng tersebut berbentuk…
    a. Tabung
    b. Prisma
    c. Limas
16. Benda yang mudah bergeliding berbentuk…
    a. Balok
    b. Bola
    c. Kubus

17. Perhatikan gambar berikut!



Penggaris diatas mempunyai bentuk…

a. Segitiga

b. Segiempat

c. Segilima

18. Perhatikan gambar berikut!

Buah semangka diatas jika dilihat dari jauh, maka berbentuk bangun datar berupa….

a. Segitiga

b. Segiempat

c. Lingkaran

19. Buah melon memiliki bentuk…

a. Bola

b. Balok

c. Limas

20. Sari menggambar bulan pernama

Ayu menggambar Pelangi

Bayu menggambar matahari

Gambar siapakah yang tidak berbentuk lingkaran?

a. Sari

b. Ayu

c. Bayu

II. **Jawablah pertanyaaan dibawah ini dengan tepat !**

21. Sebutkan benda yang berbentuk balok dilingkungan sekitarmu!
22. Sebutkan benda yang berbentuk bola dilingkungan sekitarmu!
23. Sebutkan 5 benda yang berbentuk segiempat!
24. Gambarlah bangun kubus dan tabung!
25. Gambarlah 3 buah bangun lingkaran dengan ukuran yang berbeda!

KUNCI JAWABAN

I. **PILIHAN GANDA**

1. A
2. B
3. C
4. A
5. B
6. A
7. A

8. B
9. B
10. A
11. B
12. B
13. A
14. C
15. A
16. B
17. A
18. C
19. A
20. B

II. **ISIAN**

21. Benda yang berbentuk balok diantaranya adalah sebagai berikut :
    - Kotak pensil
    - Lemari
22. Benda yang berbentuk bola diantaranya sebagai berikut :
    - Semangka
    - Kelereng
    - Bola kasti
23. Contoh-contoh benda yang berbentuk segiempat
    - Meja
    - Buku tulis
    - Buku gambar
    - Dompet
    - Lemari
    - Uang kertas
    - Televisi
24. Bangun kubus dan tabung
    - Bangun kubus

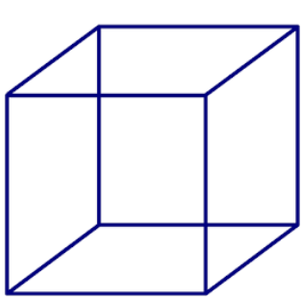

- Bangun tabung

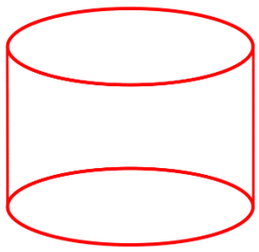

25. Gambar bangun datar lingkaran dengan ukuran yang berbeda: