Secretaria de Educación Pública
Escuela Primaria Urbana o Rural
"XXXXXXXXXXXXXX"
C.C.T.: XXXXXXXX
Zona Escolar: XX Sector: XX
Ciclo Escolar: 2022 – 2023
Grado: 2° **Grupo: X**
Maestro(a): https://materialeseducativos.mx/

Nombre del alumno: _____

Lugar: _____

Fecha: _____

Nombre del padre de familia o tutor: _____

Asignatura	Reactivos	Aciertos	Calificación	Firma del padre o tutor
Español	45			
Matemáticas	30			
Exploración de la Naturaleza y la Sociedad	40			
Formación Cívica y Ética	30			
PROMEDIO	145			

Segundo Grado

ESPAÑOL

1.- Escribe tu nombre y apellidos.

_____

2 a la 4.- Escribe el nombre de tres amigos o amigas de la escuela.

_____ _____ _____

LEE CON MUCHA ATENCIÓN Y DESPUÉS CONTESTA LAS PREGUNTAS.

LA RANA

Las ranas ponen huevos y por eso son animales ovíparos. De los huevos de las ranas salen sus crías que se llaman renacuajos. Los renacuajos no tienen patas y viven en el agua.

Cuando los renacuajos crecen se convierten en ranas, les salen las patas y viven en la tierra, pero cerca del agua.

Su piel es lisa y siempre está húmeda. Las ranas no tienen cola. Tienen cuatro patas y las traseras están más desarrolladas porque son las que usan para saltar. Las ranas tienen esqueleto por eso son animales vertebrados.

5 a la 9.- Escribe con una F si lo que se dice es falso y con una V sí es verdadero.

- [ ] La rana es un animal mamífero.
- [ ] Las ranas tienen esqueleto.
- [ ] La piel de la rana siempre esta mojada.
- [ ] La rana tiene una cola muy pequeña.

Colorea el círculo ● que completa la oración.

10.- ¿Cómo se llaman las crías de las ranas?

○ ranitas ○ sapitos ○ renacuajos

11.- Las ranas nacen de un huevo, por eso se llaman animales:

○ vertebrados ○ ovíparos ○ mamíferos

12.- Ordena las palabras y forma una oración.

no cola ranas Las tienen

_____

13.- Separa las palabras y forma una oración.

Lasranasvivencercadelagua.

_____

14 a la 17.- Escribe 4 palabras que rimen con la palabra *rana*.
Fíjate en el ejemplo.

rana _____ _____



Diana _____ _____

_____ _____

18 a la 25.- Escribe lo que ves.

_____ _____ _____ _____

_____ _____ _____ _____

26 a la 28.- Inventa una oración para cada ilustración.



29 y 30.- Inventa un nombre propio para cada niño.

31 y 32.- Realiza una descripción del gallo.

33 a la 36.-Escribe dos adjetivos que describan las siguientes ilustraciones.

37 y 38.- Imagina que vas a entrevistar a "Pinocho". Escribe dos preguntas que le harías.

1.-

2.-

39 a la 40.- Escribe la acción que realiza cada personaje.

_____ _____ _____ _____

Luis y su papá fueron de pesca. Pero como el río estaba muy contaminado, sólo sacaron basura.

49 y 41.- Observa lo que pescaron y completa la oración.

Luis y su papá pescaron una

42 a la 45. Observa las imágenes e inventa un cuento.

MATEMÁTICAS

1 a la 3.- Colorea de rosita el animal que va en tercer lugar, con rojo el que va en quinto lugar y encierra el que va en noveno lugar.



Observa los precios de los juguetes y el dinero que tiene cada niño y contesta las preguntas.



4.- ¿Quién tiene más dinero? _____

5.- ¿Cuánto dinero tiene Manuel? _____

6.- ¿Cuánto dinero tiene Oscar? _____

7.- Manuel se gastó todo su dinero. ¿Qué juguetes se compró?

_____

8.- Ordena los precios de los juguetes del menor al mayor.

_____, _____, _____, _____, _____.

9 y 10.- Observa y completa las series.

7, 17, _____, 37, _____, _____, _____, _____, _____, _____

_____ ,_____, _____, 42 , 52 , _____, _____, _____, _____

11 y 12.- Escribe los números que faltan en las tarjetas para que el resultado de sumarlos sea 57.

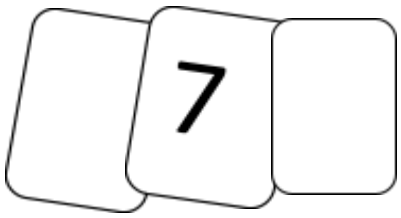

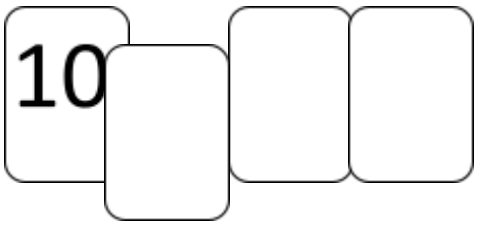

13.- Encuentra los números que hacen falta.

14 y 15.- Escribe el número que está antes y el que está después.

16 a la 18.- Anota el signo de + o − en los recuadros para completar las operaciones.

4 ☐ 9 = 13 24 ☐ 6 = 30 17 ☐ 7 = 10

19 y 20.- Completa las operaciones colocando el signo y el número que falta.

24 ☐ ☐ = 36 60 ☐ ☐ = 20

21 a la 23.- Revisa las operaciones. Con una X marca las que estén mal y con una ✓ las que estén correctamente resueltas.

◯ 43 + 10 = **53** ◯ 15 + 40 = **45** ◯ 27 + 30 = **47**

24 y 25.- Colorea lo que se puede utilizar para medir el largo del patio de la escuela.



Resuelve los siguientes problemas.

26.- Ricardo tiene 16 canicas, pero le tiene que dar la mitad a su hermano Luis. ¿Cuántas canicas le tiene que dar? _____

27.- Susana y Rosario contaron sus muñecas. Susana tiene 12 y Rosario tiene el doble de muñecas que Susana. ¿Cuántas muñecas tiene Rosario?

_____

28 a la 30.- Las fichas rojas tienen un valor de 10 y el valor de las fichas azules es 1. Colorea las fichas para representar cada cantidad.

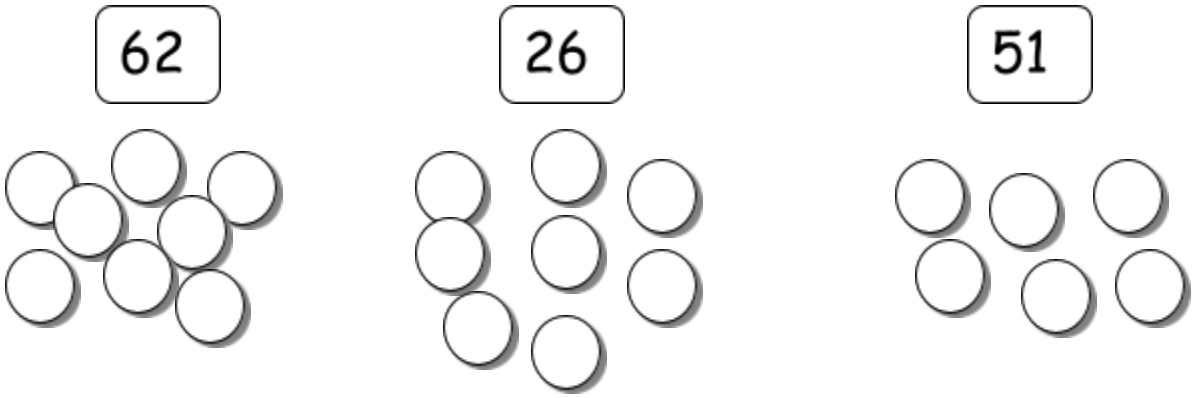

EXPLORACIÓN DE LA NATURALEZA Y LA SOCIEDAD.

1.- Escribe tu nombre completo.

2.- La localidad donde vives se llama:

3.- Pinta con azul los días que vas a la escuela.

Lunes	Miércoles	Jueves	Sábado	Viernes	Martes	Domingo

4 a la 9.- Observa que meses hacen falta. Búscalos en la sopa de letras y después los escribes en el orden correcto.

E	N	Y	A	U	W	V	U	M	D	N	O	H	A	H	M	N	X	F	X
E	D	B	O	U	J	S	G	V	I	B	G	D	T	I	K	E	H	F	O
P	S	R	A	M	U	Q	Ñ	Y	E	F	W	I	V	D	M	U	G	U	O
I	N	T	I	I	L	B	Z	K	V	R	S	C	L	G	E	I	Z	O	T
B	Ñ	V	G	O	I	W	Ñ	G	M	D	B	I	M	O	G	F	Q	W	S
Q	Y	K	X	Q	O	M	M	Z	G	L	W	E	A	A	Z	I	B	R	V
P	L	K	M	V	W	A	G	O	S	T	O	M	W	Ñ	X	Q	X	O	G
Q	V	Z	Y	E	B	R	B	G	E	F	A	B	R	I	L	E	F	N	H
X	G	K	M	V	F	Z	R	D	Ñ	F	Z	R	K	P	L	Y	L	D	K
G	G	Z	K	Z	U	O	C	T	U	B	R	E	A	F	M	X	A	R	H

Enero	Febrero	
	Mayo	Junio
		Septiembre
	Noviembre	

10 y 11.- Dibuja tu familia y anota el nombre de cada uno de ellos.

12 y 13.- Ilumina con amarillo los juegos que eran de antes y con verde los de hoy.

Escondidas	Los tazos	Videojuegos	A la víbora de la mar

14 y 15.- Escribe dos costumbres o tradiciones que se festejen en tu localidad.

_____ y _____

16 y 17.- Escribe 2 medios de transporte de tu comunidad.

_____ _____

18 y 19.- Escribe el oficio o la profesión según corresponda.

Hace los muebles: _____

Repara los vehículos: _____

20 a la 24.- Escribe las partes del cuerpo del niño y de la niña.



25 a la 27.- Dibuja en el reloj las manecillas para que indiquen la hora de:

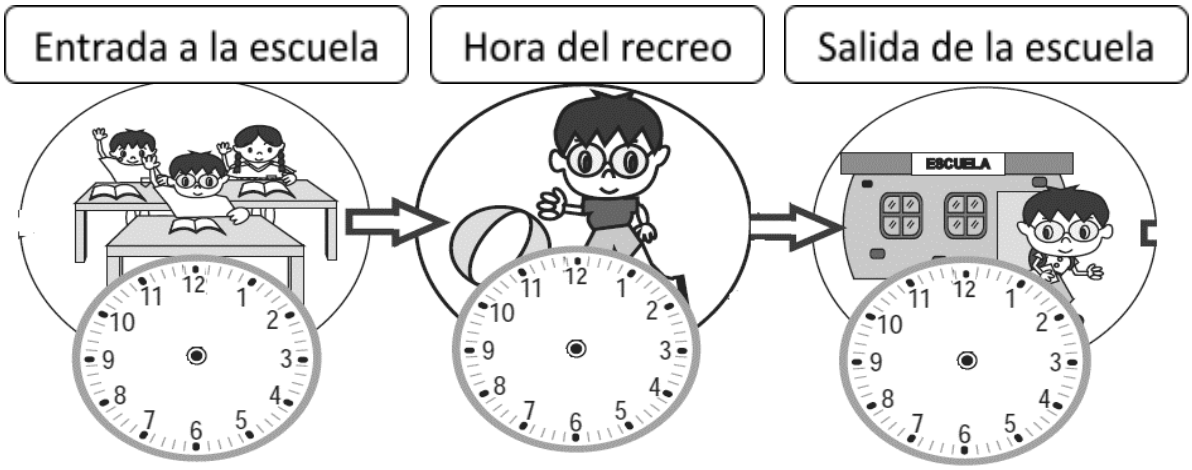

28 y 29.- Tacha los que NO son Recursos Naturales.




30 a la 33.- Rellena el círculo ● con la respuesta correcta.

¿Cuál de los siguientes trabajos se realiza por la noche?

○ jardinero ○ lador ○ rendero

Este astro te da su energía en forma de luz y calor.

○ planeta ○ sol ○ cometa

Permite saber si un alimento es dulce, salado, amargo o ácido.

○ olfato ○ gusto ○ cto

Es un alimento que pertenece al grupo de cereales y tubérculos.

○ tortilla ○ jitomate ○ leche

Escribe el nombre de 2 zonas de riesgo en tu casa, calle o escuela.

34. _____ 35. _____

36 a la 40.- Une con una línea el hecho histórico con la fecha en que se festeja.

Independencia de México	5 de febrero
Batalla de Puebla	16 de septiembre
Revolución Mexicana	21 de marzo
Natalicio de Benito Juárez	5 de mayo
Promulgación de la Constitución Política de México	20 de noviembre

FORMACIÓN CÍVICA Y ÉTICA

1.- Colorea el recuadro donde las personas NO toman medidas de seguridad.





2.- Escribe una de tus obligaciones.

3.- Escribe uno de tus derechos.

4 a la 6.- Escribe CUIDAR, COLABORAR o RESPETAR **en donde corresponda para completar las oraciones**.

_____ a los grupos indígenas que hablan y visten diferente a nosotros.

_____ para realizar campañas de limpieza en nuestros parques y centros recreativos.

_____ los recursos naturales, porque nos brindan todo lo necesario para sobrevivir.

7 a la 9.- Encierra a los niños que cuidan su cuerpo o evitan accidentes.



10 y 11.- Dibuja las expresiones de tu cara si:

Te quitan un juguete que te gusta.	Te dejan salir temprano al recreo.

12 a la 15.- Observa las imágenes. Encierra con color azul si es una necesidad y con rojo si es un deseo.

16 y 17.- Colorea los alimentos que son de Origen Animal.


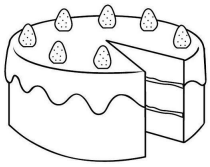

18 Y 19.- Colorea 2 de los símbolos patrios de México.

20.- México tiene 3 símbolos patrios.

¿Cuál hace falta? _____

21 a la 24.- Coloca dentro de cada círculo como se indica.

(D) Si es un derecho de los niños. (R) Si es una responsabilidad.

25 a la 28.- Une con una línea el dibujo con su significado.

Amor

Es creer en las demás personas.

A cada quien se le debe dar lo que le corresponde.

Justicia

Confianza

Es un sentimiento que une a las personas.
Vivir con armonía, sin violencia.

Paz

29 y 30. Completa las siguientes oraciones.

Para ahorrar agua, yo... _____

_____

Para reducir el uso de la electricidad, yo..._____

_____

Gracias por visitar:

https://materialeducativo.org/

&

https://materialeseducativos.mx/

Únete a nuestro canal de Youtube:

https://www.youtube.com/channel/UC2c9MOFE8JOwPAc9EYuMe0w

Únete a nuestras páginas de Facebook:

https://www.facebook.com/materialeducativomx/

https://www.facebook.com/educacionprimariamx/

El texto, imágenes y contenido de los exámenes pertenecen a sus respectivos autores, nosotros solo compartimos el material como fin informativo y educativo, sin fines de lucro.

Este material fue enviado u obtenido de manera gratuita en las redes sociales.

Les recomendamos los siguientes grupos para tener el mejor material educativo totalmente gratuito, siempre actualizado y a la vanguardia para este ciclo escolar:

https://www.facebook.com/groups/materialeseducativosmx/

https://www.facebook.com/groups/maestrodeprimaria/

https://www.facebook.com/groups/primergradodeprimaria/

https://www.facebook.com/groups/segundogradodeprimaria/

https://www.facebook.com/groups/tercergradodeprimaria/

https://www.facebook.com/groups/cuartogradodeprimaria/

https://www.facebook.com/groups/quintogradodeprimaria/

https://www.facebook.com/groups/sextogradoprimariamx/

https://www.facebook.com/groups/todosobredocencia/

https://www.facebook.com/groups/situacionesdidacticaspreescolar/

https://www.facebook.com/groups/materialeducativoprimerysegundogrado/

https://www.facebook.com/groups/materialeducativotercerycuartogrado/

https://www.facebook.com/groups/materialeducativoquintoysextogrado/

https://materialeseducativos.mx/

http://materialeducativo.org/