GUÍA N°2 MATEMÁTICA

Profesa: Tatiana Saavedra G.

OBJETIVOS	Objetivos específicos: MA02 OA 09 Demostrar que comprende la adición y la sustracción en el ámbito del 0 al 100: usando un lenguaje cotidiano y matemático para describir acciones desde su propia experiencia; resolviendo problemas con una variedad de representaciones concretas y pictóricas, de manera manual y/o usando software educativo; registrando el proceso en forma simbólica; aplicando los resultados de las adiciones y sustracciones de los números del 0 a 20 sin realizar cálculos; aplicando el algoritmo de la adición y sustracción sin considerar reserva; creando problemas matemáticos en contextos familiares y resolviéndolos.
Nombre:	
Curso:	Segundo básico

Trabajemos la adición en forma vertical

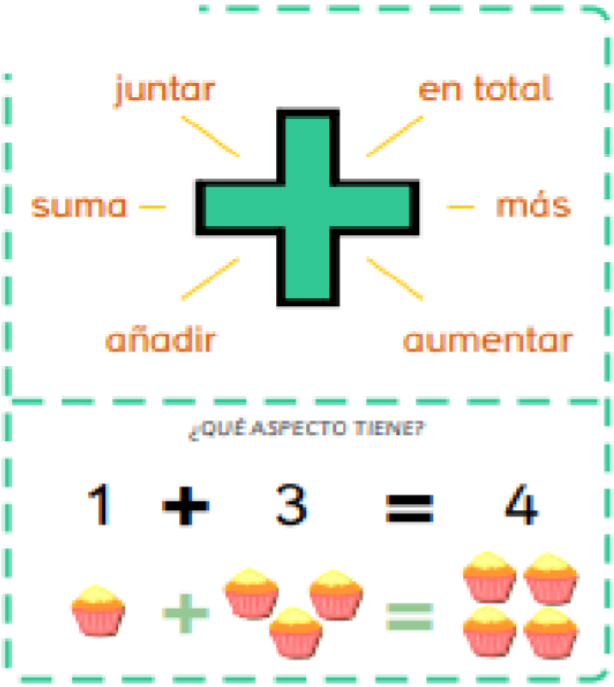

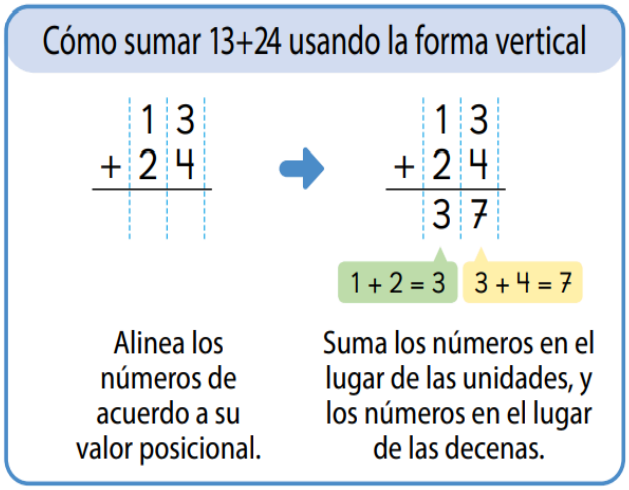

Expresión: 13 + 24 = 37

Respuesta: 37 personas.

1. Resuelve las siguientes adiciones, utilizando la estrategia que más te acomode:

GUÍA N°2 MATEMÁTICA

Profesa: Tatiana Saavedra G.

6 Comprueba que estos ejercicios estén correctos. Si hay error, corrígelos.

a) 27 + 62

$$\begin{array}{r} 2\ 7 \\ +\ 6\ 2 \\ \hline 8\ 9 \end{array}$$



b) 56 + 3

$$\begin{array}{r} 5\ 6 \\ +\ 3\ \ \\ \hline 8\ 9 \end{array}$$



c) 46 + 10

$$\begin{array}{r} 4\ 6 \\ +\ 1\ 0 \\ \hline 5\ 0 \end{array}$$



Ejercicio

Encontremos el resultado, usando la forma vertical.

a) 28 + 10 **c)** 53 + 36 **e)** 42 + 36 **g)** 23 + 14

b) 40 + 27 **d)** 15 + 54 **f)** 11 + 78 **h)** 45 + 13

2. Utilizando el **texto de actividades** resuelve las adiciones según corresponda.	Págs. 20 - 21 – 22 – 23 y 29.

GUÍA N°2 MATEMÁTICA

Profesa: Tatiana Saavedra G.

3. Resuelve los siguientes problemas utilizando la estrategia que más te acomode.

Mauricio tiene 7 bolitas y Fabián 12. ¿Cuántas bolitas tienen entre los dos?

DATOS:	OPERACIÓN:	RESPUESTA COMPLETA:
7 BOLITAS 12 BOLITAS	$\begin{array}{r} 7 \\ +12 \\ \hline 19 \end{array}$	Entre los dos tienen 19 bolitas.

Andrés recogió 17 flores y Alicia 22. ¿Cuántas flores recogieron entre los dos?

DATOS:	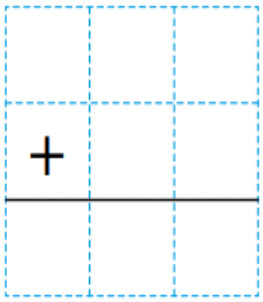 OPERACIÓN:	RESPUESTA COMPLETA:

Martín tenía 52 cartas. Su amigo le dio 7 más. ¿Cuántas cartas tiene en total?

GUÍA N°2 MATEMÁTICA

Profesa: Tatiana Saavedra G.

DATOS:	OPERACIÓN:	RESPUESTA COMPLETA:
	+	

Buen trabajo. Nunca te rindas.