Министерство образования и молодежной политики Свердловской области
Государственное автономное профессиональное образовательное учреждение
Свердловской области
«Уральский колледж технологий и предпринимательства»
(ГАПОУ СО «УКТП»)

Преподаватель (ВКК) Фазлиахметова Оксана Юрьевна
Обратная связь осуществляется : эл.почта **ofazliakhmetova@list.ru**

Дисциплина ____Физика_____

Тема: Контрольная работа по теме «Кинематика».

Вид учебного занятия: контроль полученных знаний;

Работы отправляем в этот же день до 16.00!!! если задание будет отправлено позже, отметка снижается!!!

СОДЕРЖАНИЕ УЧЕБНОГО ЗАНЯТИЯ

Задание 1

Решить контрольную работу по вариантам. Варианты занесены в таблицу успеваемости. Работу оформляем: дано, решение, ответ. Если в задании даны графики, переносим их в конспект!!! ОБЯЗАТЕЛЬНО УКАЗЫВАЕМ ВАРИАТ.

Критерии оценок:

оценка 5 – все задания с 1 по 4
оценка 4 – задания с 1 по 3
оценка 3 – задания с 1 по 2

1 вариант	**2 вариант**
1.Автомобиль движется со скоростью 72км/ч.Определить ускорение автомобиля, если через 20минут он остановится.	1.Троллейбус трогается с места с ускорением Какую скорость приобретает троллейбус за 1 м
2.Точка вращается по окружности радиусом 0,2м с периодом 2с. Определить линейную скорость.	2.Чему равен период колеса ветродвигателя, е минуты колесо сделало 50 оборотов?
3. 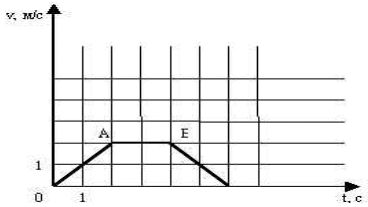 По графику зав-ти скорости движения тела от времени определить характер движения тела, начальную скорость и ускорение на каждом участке	3.По графику зав-ти скорости движения тела о определить характер движения тела, начальну и ускорение на каждом участке 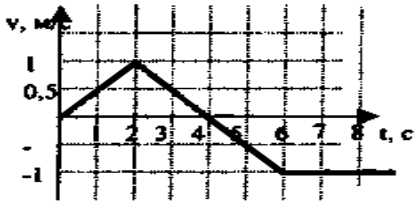
4.Найти место и время встречи двух тел 2 способами (графич. и аналит.) 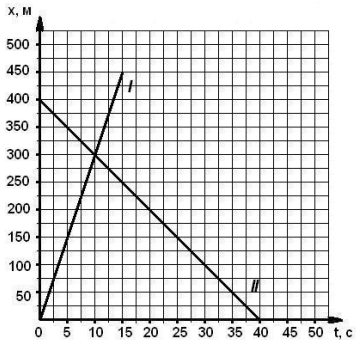	4.Найти место и время встречи двух тел 2 спос (графич. и аналит.) 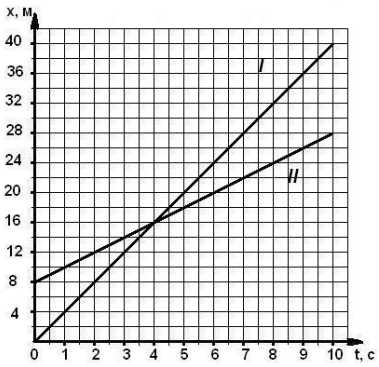
5.Самолет при посадке коснулся посадочной полосы аэродрома при скорости 252 км/ч.Через 30 секунд он остановился. Определить путь , пройденный самолетом при посадке.	5.Тело брошено вертикально вниз со скорость высоты 20м. Определить время падения тела скорость тела в момент падения.

3 вариант	**4 вариант**
1.Автомобиль при разгоне за 10 секунд приобретает скорость 54 км/ч. Определить ускорение автомобиля.	1.Вагонетка движется из состояния покоя с у 0,25 м/с^2. Какую скорость будет иметь вагоне минуты от начала движения?
2.Определить период вращающегося диска, если он за 10секунд делает 40 оборотов.	2.Какова скорость трамвайного вагона, движ закруглению радиусом 50 метров с центростремительным ускорением 0,5м/с^2.
3.По графику зав-ти скорости движения тела от времени определить характер движения тела, начальную скорость и ускорение на каждом участке 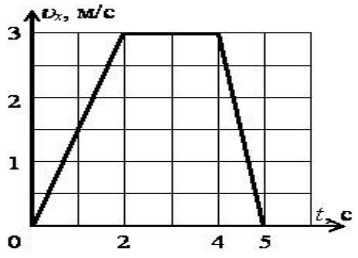	3.По графику зав-ти скорости движения тела определить характер движения тела, начальн и ускорение на каждом участке 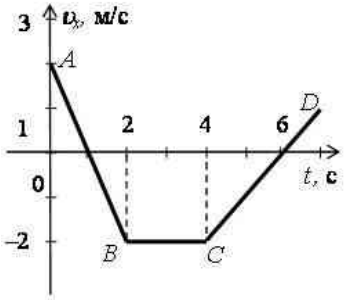
4.Найти место и время встречи двух тел 2 способами (графич. и аналит.) 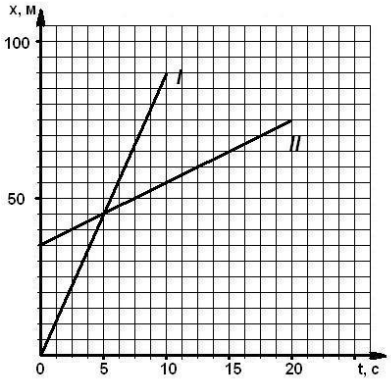	4.Найти место и время встречи двух тел 2 сп (графич. и аналит.) 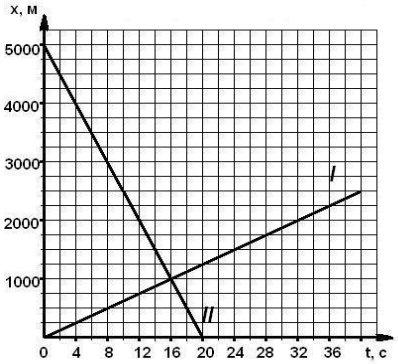
5.Тело свободно падает с высоты 24 метра(без начальной скорости). Определить время падения тела и скорость тела в момент падения на землю.	5.Автомобиль , двигаясь со скоростью 43,2 к останавливается при торможении в течение 3 Какое расстояние он пройдет до остановки?

Ведомость учета результатов теоретического (дистанционного) обучения

Группа № ____ТО 110____

Дисциплина ___физика_____

№	Ф.И.	30.10	1.11	3.11	8.11	9.11	13.11 К.р.	**Ат тес**					
1	Агадулин Э.А.			3	3		1в	**3**					
2	Бирюков А.В.	3			3		2в	**3**					
3	Вибе А.С.		5	3	3		3в	**4**					
4	Гиль И.А.	3	3		3		4в	**3**					
5	Дадашов Р.Э.						1в	**н/а**					
6	Джумаев Ш.Х.	3	3		3		2в	**3**					
7	Емашев Д.А.	3					3в	**3**					
8	Журавлев И.С.		3		5		4в	**4**					
9	Зенков Е.А.	3	4	4	4		1в	**4**					
10	Зиннуров Н.В.	4	5	4			2в	**4**					
11	Иванова Ю.А.	4	5	3	5		3в	**4**					
12	Козлов А.И.			4	4		4в	**4**					
13	Корелин А.Е.		3	4	4		1в	**4**					
14	Королев Н.А.						2в	**н/а**					
15	Крутиков А.И.	4	3	4	3		3в	**4**					
16	Кутова А.А.		3	3	4		4в	**3**					
17	Лобанов Ф.А.						1в	**н/а**					
18	Лукьянчук Д.Н.		3	3	4		2в	**3**					
19	Мужев В.А.		4	4	4		3в	**4**					
20	МягковД.Ю.						4в	**н/а**					
21	Романенко А.А.		4	3	4		1в	**4**					
22	Русинов А.А.	3		3	3		2в	**3**					
23	Рыбин В.Д.						3в	**н/а**					
24	Стихин К.А.		3	3	4		4в	**3**					
25	Тузников П.Р.		3	4	4		1в	**4**					
26	Удинцев А.Д.	4	5	4	3		2в	**4**					
27	Чемякина О.А.		5	4	5		3в	**5**					
28	Шимолин Н.С.			3	3		4в	**3**					

Обратная связь электр.почта ofazliakhmetova@list.ru