LETRAMENTO EM MATEMÁTICA 7º ANO

(Aula do dia 17 de setembro)

Correção das atividades abaixo:

1. Determine a área das figuras planas abaixo:

a)

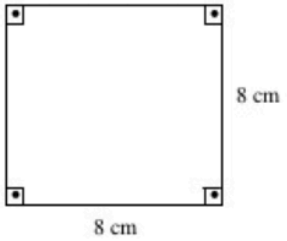

b)

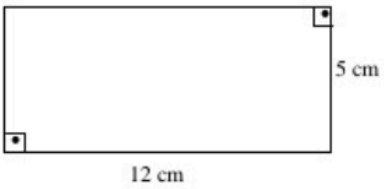

c)

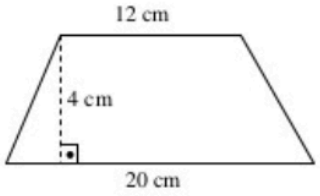

d)

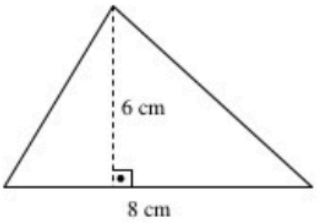

2. (Mack-SP) Uma escola de Educação Artística tem seus canteiros em forma geométrica. Um deles é em formato do trapézio retângulo, com as medidas indicadas na figura. A área do canteiro representada pela figura é:

a) 13 m^2.
b) 22 m^2.
c) 6,5 m^2.
d) 52 m^2.
e) 26 m^2.

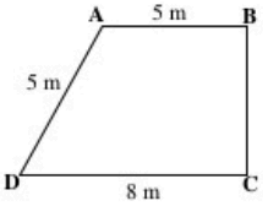

Atividades:

De olho nas medidas...

Observe as medidas e calcule o que se pede:

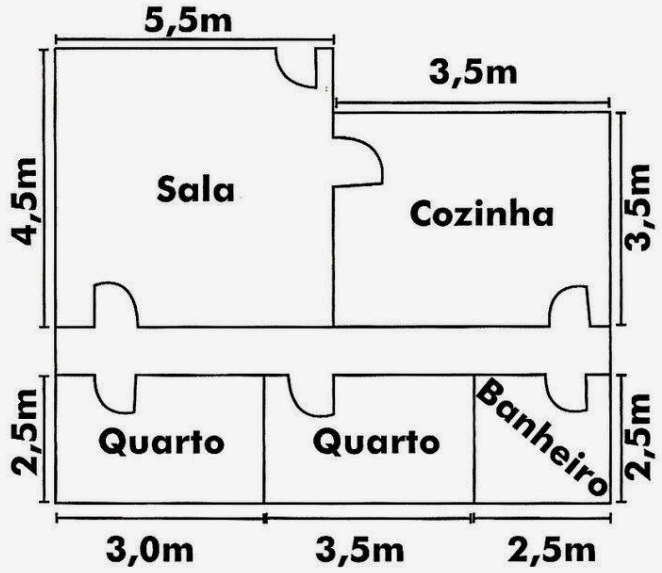

A) Área da sala.
B) Área da cozinha.
C) Área de cada quarto.
D) Área de cada banheiro.
E) Área total da casa.
F) Se fosse construído mais um quarto com 3 m de lado, qual seria a área total da casa?