6 клас

Урок №29

Дата:

КОНТРОЛЬНА РОБОТА №1.

Мета: повторити, узагальнити знання, набуті під час вивчення тем; перевірити рівень засвоєння знань, умінь та навичок; розвивати практичні вміння й навички використовувати набуті знання; виховувати самостійність, відповідальність.

Обладнання: атласи, варіанти завдань.

Тип уроку: перевірка і корекція знань, умінь і навичок.

Хід уроку

I. ОРГАНІЗАЦІЙНИЙ МОМЕНТ

II. МОТИВАЦІЯ НАВЧАЛЬНОЇ ТА ПІЗНАВАЛЬНОЇ ДІЯЛЬНОСТІ УЧНІВ

III. ЕТАП ПЕРЕВІРКИ ЗНАНЬ

I варіант

I рівень

1. Першим мандрівником, який очолив три навколосвітні подорожі, був:

А) Абель Тасман; Б) Юрій Лисянський;
В) Джеймс Кук; Г) Христофор Колумб.

2. Лінія на глобусі, яка проведена на однаковій відстані від обох полюсів Землі, — це:

А) екватор; Б) тропік;
В) полярне коло; г) полюс.

3. На планах місцевості вирубаний ліс позначається:

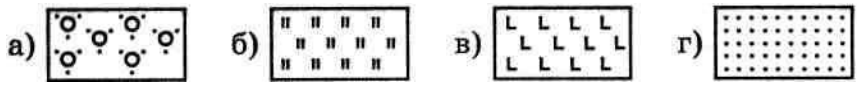

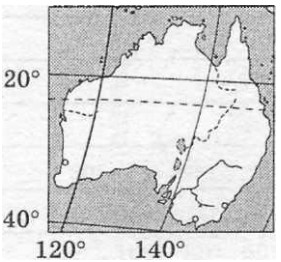

4. Усі точки материка Австралія, зображеного на фрагменті контурної карти, мають широту:

А) західну; Б) північну;
В) південну; Г) східну.

5. Пункт, розташований на схід від Києва, може мати такі географічні координати:

А) 50,5° пн. ш., 12° сх. д.; Б) 50,5° пн. ш., 107° сх. д.;
В) 30° пн. ш., 28° сх. д.; Г) 30° пн. ш., 7° зх. д.

6. Земна кора - це:

А) верхня тверда оболонка Землі, що складається з гірських порід і мінералів;
Б) велика стійка ділянка літосфери;
В) сукупність форм земної поверхні;
Г) великі ділянки земної поверхні з невеликими коливаннями висот.

II рівень

7. Установіть відповідність між географічними координатами та материками, на яких ці точки розташовані.

1	20° пн. ш.,60° сх. д.	**А**	Австралія	***Відповіді***	
2	20° пд. ш., 20° сх. д.	**Б**	Євразія	**1**	
3	20° пд. ш., 60° зх. д.	**В**	Південна Америка	**2**	
		Г	Африка	**3**	

8. Установіть відповідність між поняттями та їхніми визначеннями.

1	Географічна широта	**А**	Умовні лінії на карті, які з'єднують полюси	***Відповіді***	
2	Тропіки	**Б**	Паралелі з широтою 23,5°	**1**	
3	Меридіан	**В**	Умовні лінії на карті, паралельні екватору	**2**	
		Г	Відстань між точкою на земній поверхні та екватором, виражена в градусах	**3**	

III рівень

9. На географічній карті масштабу 1 : 90 000 000 відстань від Києва до Москви становить 0,8 см. Обчисліть реальну відстань між цими містами, запишіть свої дії та пояснення.

10. Установіть відповідність між назвами великих рівнин та цифрами, якими вони позначені на картосхемі.

Східноєвропейська	Декан	Амазонська	Західносибірська

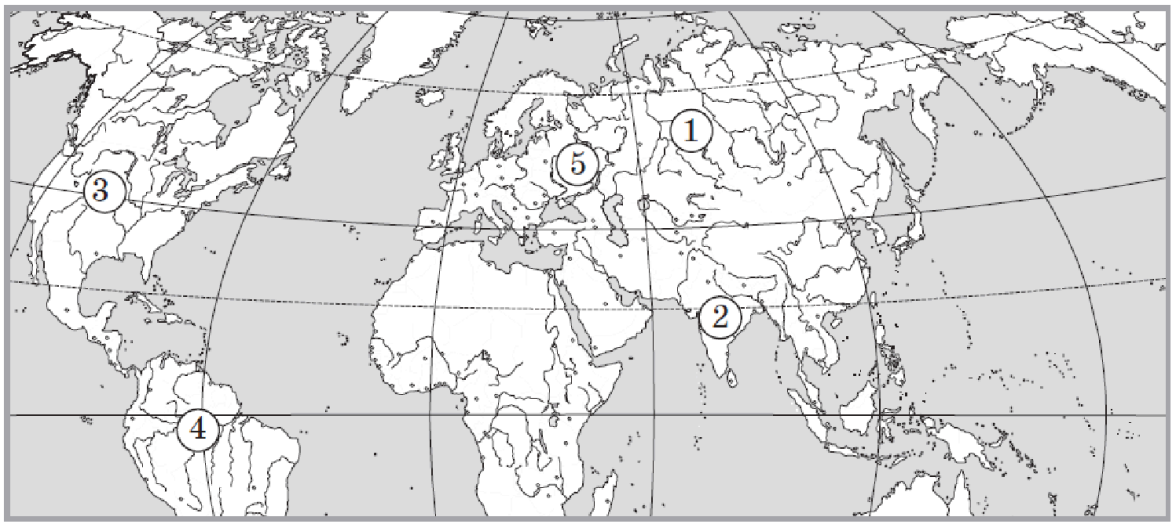

IV рівень

11. Проаналізуйте маршрут експедиції Ф. Магеллана.

II варіант

I рівень

1. Христофор Колумб до берегів Америки здійснив:

А) одну мандрівку; Б) дві мандрівки;
В) чотири мандрівки; Г) три мандрівки.

2. Паралель, позначена на карті пунктиром, — це:

А) екватор; **Б**) тропік;
В) меридіан; Г) полюс.

3. На планах місцевості рідкий чагарник позначається:

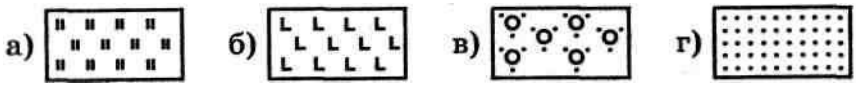

4. Усі точки материка Північна Америка, зображеного на фрагменті контурної карти, мають:

А) північну широту і західну довготу; **Б)** північну широту і східну довготу;
В) південну широту і східну довготу; Г) південну широту і західну довготу.

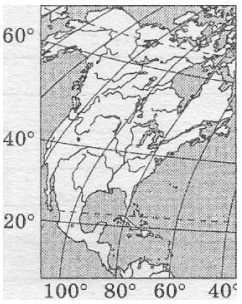

5. Пункт, розташований на північ від Києва, може мати такі географічні координати:

А) 42° пн. ш., 113,5° сх. д.; Б) 50° пд. ш., 130,5° сх. д.;
В) 64° пн. ш., 30,5° сх. д.; Г) 15° пд. ш., 95° сх. д.

6. Літосферна плита - це:
а) верхня тверда оболонка Землі, що складається з гірських порід і мінералів;
б) сукупність форм земної поверхні;
в) великий блок літосфери, який вільно рухається відносно іншого блоку по поверхні мантії;
г) велика стійка ділянка літосфери.

ІІ рівень

7. Установіть відповідність між географічними координатами та океанами, на яких ці точки розташовані.

1	40° пд. ш., 60° сх. д.	**А**	Тихий	***Відповіді***	
2	40° пн. ш., 40° зх. д.	**Б**	Індійський	**1**	
3	80° пн. ш., 120° зх. д.	**В**	Атлантичний	**2**	
		Г	Північний Льодовитий	**3**	

8. Установіть відповідність між поняттями та визначеннями.

1	Екватор	**А**	Точки перетину земної осі з поверхнею Землі	***Відповіді***	
2	Полярні кола	**Б**	Паралелі з широтою **66,5°**	**1**	
3	Полюси	**В**	Найдовша паралель	**2**	
		Г	Відстань між точкою та початковим меридіаном, виражена в градусах	**3**	

ІІІ рівень

9. На географічній карті масштабу 1 : 90 000 000 відстань від Києва до Парижа становить 2,2 см. Обчисліть реальну відстань між цими містами, запишіть свої дії та пояснення.

10. Установіть відповідність між назвами літосферних плит та цифрами, якими вони позначені на картосхемі.

Північноамериканська	Наска	Євразійська	Індо-Австралійська

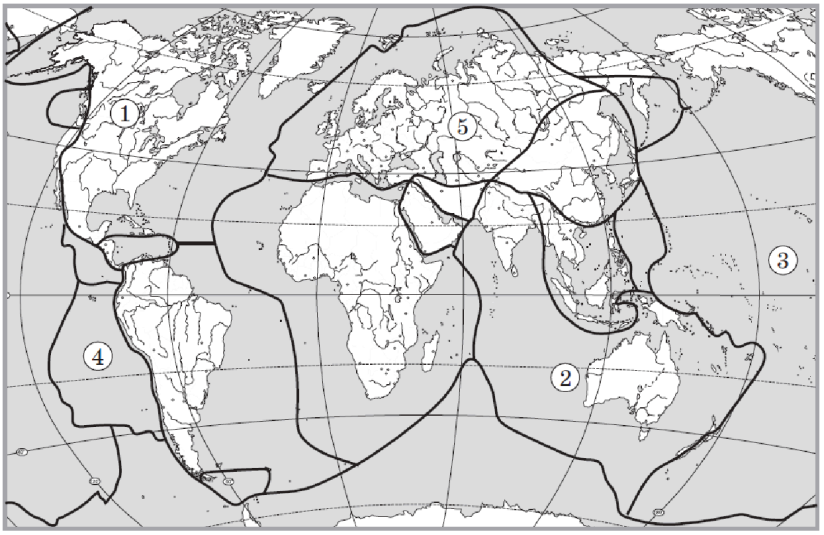

IV рівень

11.Проаналізуйте маршрут першої експедиції Х. Колумба**.**

IV. ПІДСУМОК УРОКУ. РЕФЛЕКСІЯ

V. ДОМАШНЄ ЗАВДАННЯ

Повторити §§ 1-26.