المملكة العربية السعودية
وزارة التعليم
الإدارة العامة للتعليم .....
مكتب تعليم .....
مدرسة .....

وزارة التعليم
Ministry of Education

رؤية VISION 2030
المملكة العربية السعودية
KINGDOM OF SAUDI ARABIA

اختبار عملي لمقرر علم الاحياء -
نظام مسارات (ثاني ثانوي)
الفصل الدراسي الثاني
للعام الدراسي 1445 هـ

الاسم		الرقم التسلسلي		الشعبة	

اختر الإجابة الصحيحة لكل مما يأتي على حسب الشكل المجاور لها.

الدرجة كتابة 10

1	أي مما يأتي يتضمن نوع المفصل في الصورة :		
	A	الورك	
	B	الجمجمة	
	C	المرفق	
2	أي الاشكال التالية تصنف على انها خلية عضلية ارادية:		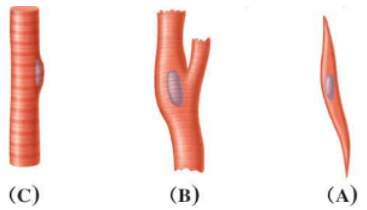
	A	A	
	B	B	
	C	C	
3	مالرقم الذي يمثل البطين الأيمن :		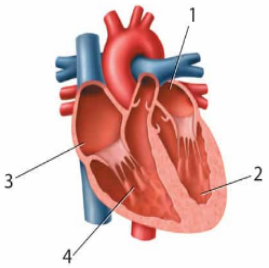
	A	3	
	B	4	
	C	2	
4	مالعملية المبينة في الشكل التالي :		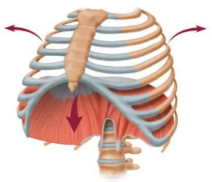
	A	الشهيق	
	B	الزفير	
	C	الترشيح	

5	أي من التراكيب الاتية تمثل الرمز A الرسم التالي :		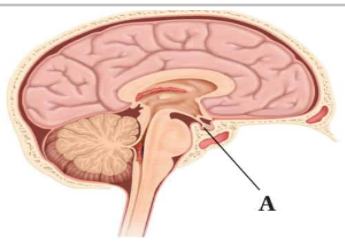
	A	الغدة الدرقية	
	B	فوق الكظرية	
	C	الغدة النخامية	

6	أي أجزاء الجهاز الهضمي يحدث فيه عمليتا الهضم الكيميائي والميكانيكي أولا :		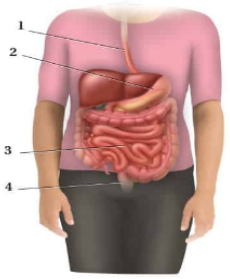
	A	4	
	B	2	
	C	1	

7	ماذا يحدث داخل تركيب C :		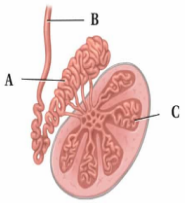
	A	انتاج الخلايا المنوية	
	B	افراز السكر	
	C	تخزين الحيوانات المنوية ونضجها	

8	أي أجزاء الرسم التالي يتوقع وجود مادة الميلانين فيه ؟					
			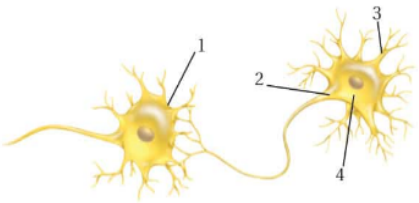			
	A	2	B	1	C	3

9	مانوع الاستجابة المناعية في الممثلة في الشكل التالي :					
			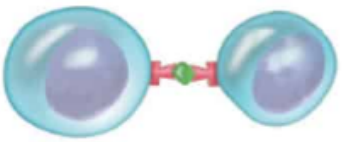			
	A	غير متخصصة	B	متخصصة	C	هرمونية

10	أي مما يأتي يعد جزءا من الهيكل الطرفي :		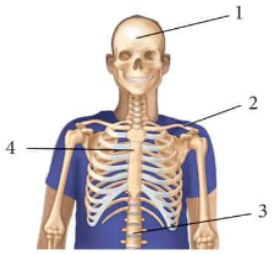
	A	1	
	B	2	
	C	3	

by
Abo tamim aljedaani