

Agrupamento de Escolas Daniel Faria, Paredes

Ensino Básico Atividade – Localização relativa

Disciplina – Geografia Duração da ficha – 50 m. Trabalho de Pares

Data – ___/10/2018 7º Ano Turma – _____

Nome -	Nº.
Nome -	Nº.

Atentem aos documentos de trabalho propostos.

Conjunto I – Introdução

1) Leiam o texto e completem, por extenso, os espaços vazios da rosa-dos-ventos:

A **rosa dos ventos** é uma imagem que representa os quatro sentidos fundamentais e seus intermediários. A rosa dos ventos corresponde à volta completa do horizonte e surgiu da necessidade de indicar exatamente um sentido que nem mesmo os pontos intermediários determinariam, pois um mínimo desvio inicial torna-se cada vez maior, à medida que vai aumentando a distância.

Assim, praticamente todos os pontos na linha do horizonte podem ser localizados com exatidão. Cada quadrante da rosa-dos-ventos corresponde a 90°: considera-se o norte a 0°; o leste a 90°; o sul a 180°, o oeste a 270°, e novamente o norte a 360°.

A utilização de rosa-do-vento é extremamente comum em todos os sistemas de navegação antigos e atuais. Seu desenho em forma de estrela tem a finalidade única de facilitar a visualização com o balanço da embarcação, portanto os quatro pontos cardeais principais são os mais fáceis de ser notados: **norte** (0° de azimute cartográfico), **sul** (180°), **este** ou **leste** (90°) e **oeste** (270°).

Dependendo do tamanho da bússola pode caber mais quatro pontos que são chamados de colaterais: **nordeste** (45°), **sudeste** (135°), **noroeste** (315°) e **sudoeste** (225°).

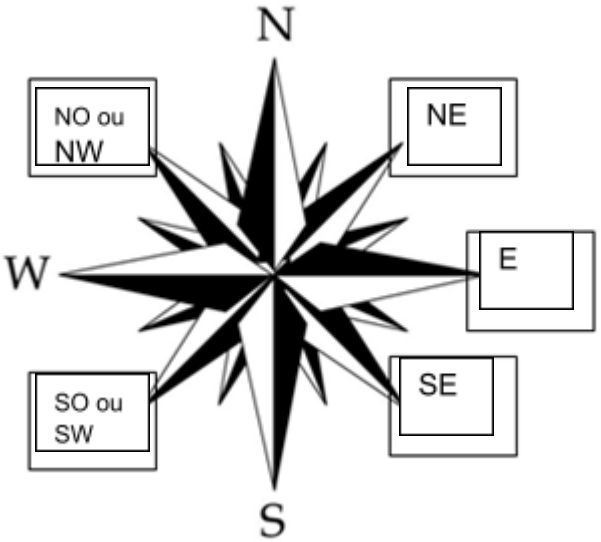

2) Observem o planisfério que se segue e completem as seguintes afirmações, (utilizem as iniciais apenas):

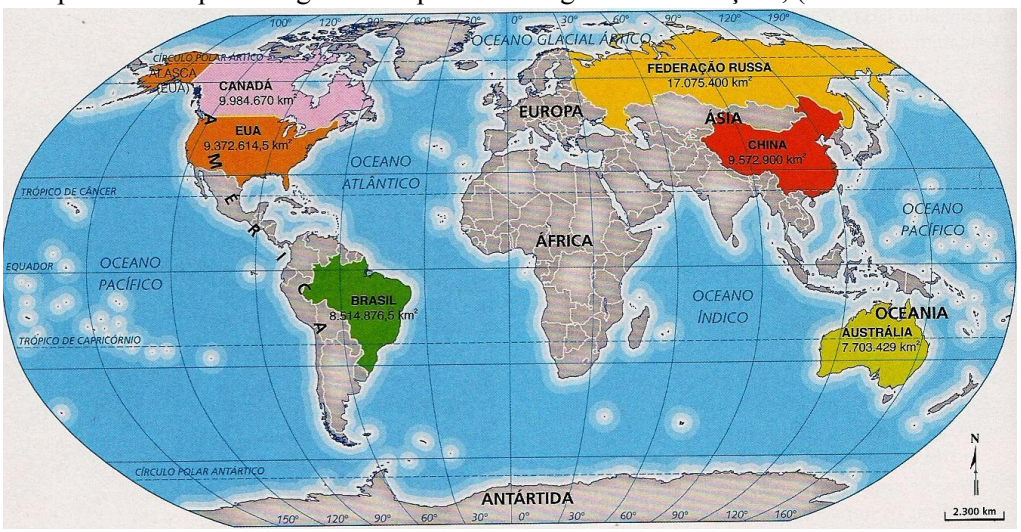

a. O continente africano localiza-se a S da Europa.

b. A Europa localiza-se a O da Ásia

c. O continente americano localiza-se a NO da Antártida

d. O continente americano localiza-se a O de África

e. África localiza-se a NO da Oceânia

f. A Ásia localiza-se a NO da Oceânia

g. A Europa localiza-se a N de África

Bom Trabalho – Prof. Mário Canelas