االسم . النسب . القسم الرقم.....:	**بسم هللا الرحمـــن الرحيم** تقويم تشخيصي للسنة أولى إعدادي في مادة االجتماعيات - بداية الموسم الدراسي	تاريخ اإلنجاز ...../...../..... تاريخ التصحيح ...../...../.....	النقطة

اربط(ي) بسهم بين المصطلح وتعريفه:

مـن	
احداث الماضي بتعريفها وتفسيرها ثم تحليلها، بهدف الوصول لتعميمات وحقائق لحاضر، للتنبؤ بالمستقبل.	

)ن1.5(

)1 وطن(ي) بالترتيب على الخط الزمني العصور التاريخية التالية:
التاريخ المعاصر - التاريخ الوسيط - التاريخ القديم - التاريخ الحديث

التـــــــــاريـــــــخ: 5.5(ن)

)ن2(

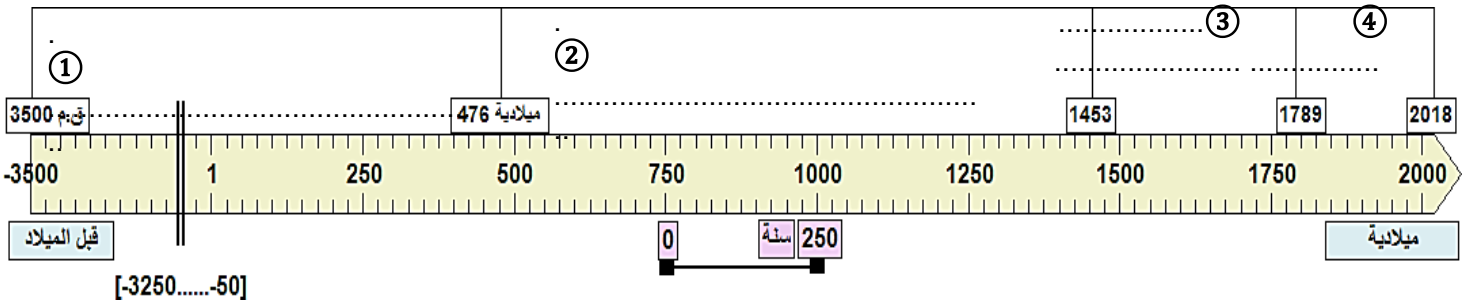

2(بعد توطينك بالترتيب للعصور التاريخية على الخط الزمني أعاله، ضع(ي)

)3 حول(ي) بعض السنوات المحددة للعصور إلى ألفيات وقرون: 1.5(ن)

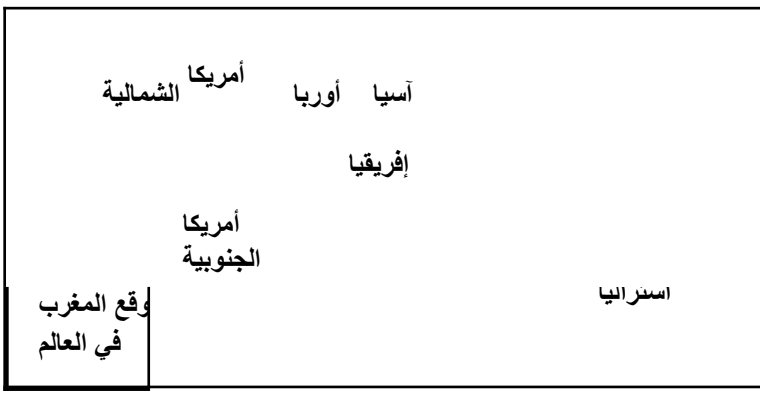

عالمة X في خانة الحضارة المناسبة التي ازدهر فيها كل عصر على حدة: 2(ن)

السنوات	االلفية	القرن الميالدي
م 476	.....	الخامس
م 1453	الثانية	.....

الثامن عشر	.....	م 1789

خريطة



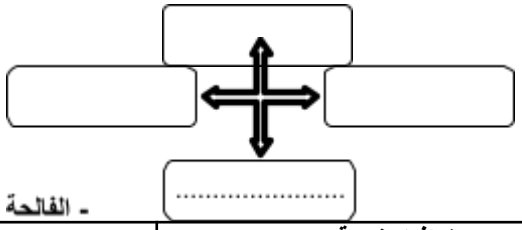

5) صنف(ي) الظواهر الجغرافية حسب الجدول أسفله: التضاريس - الكثافة السكانية - الفالحة والصيد البحري - المناخ - البنية العمرية - االنهار والبحار- التجارة والخدمات 3.5(ن)

جغرافيا بشرية	جغرافيا طبيعية	جغرافيا اقتصادية
.....	.....	.....
.....	.....	.....
.....	.....	.....

التربية على المواطنة: 6.5(ن)

الوثيقة 1: مدى تنفيذ اتفاقية حقوق الطفل.

«... تبنّت أغلب دول العالم الاتفاقية الدولية لحقوق الطفل ووضعت العديد من القوانين لصالح الأطفال، لكن مازالت دول كثيرة لا تحترم ولا تطبق كل ما تنص عليه الاتفاقية والقوانين المرتبطة بها.

يُشرِّدُ ملايينُ الأطفال عبرَ العالم، وخاصةً في البلدان الفقيرة، في المعاناة من سوء التغذية وغياب السكن اللائق، وانتشار الأمراض وصعوبات التمدرس والمعاملة السيئة...»

المصدر: المسار، االجتماعيات كتاب التلميذ(ة) للسنة السادسة من التعليم االبتدائي، ص 134 ط 2017

◄ **بعد قراءتك للنص (الوثيقة 1) بتمعن، أجب(ي) عن االسئلة أسفله في الصفحة الخلفية:**

1) بين(ي) انطالقا من الوثيقة 1، ما قامت به أغلب دول العالم لصالح االطفال. 1(ن)

2) استخرج(ي) المشاكل التي يستمر ماليين االطفال في المعاناة منها 2(ن)

3) استنتج(ي) الحقوق التي يحرم منها هؤالء االطفال 2(ن)

4) وضح(ي) أين تنتشر أكثر هذه المشاكل، وسبب ذلك 1.5(ن)