المادة / رياضيات
التاريخ / / 14

الصف : الأول
الحصة :

الموضوع / التهيئة

الاسم :

.....

ـ لون الشاحنة بالأصفر والكرة بالأزرق والطائر بالأسود والوردة بالأحمر

المادة / رياضيات
التاريخ / / 14

الصف : الأول
الحصة :

الموضوع / التصنيف وفق خاصية واحدة

الاسم :

.....

أضع حول الشيء داخل الإطار الذى له نفس الصفة

١



٢

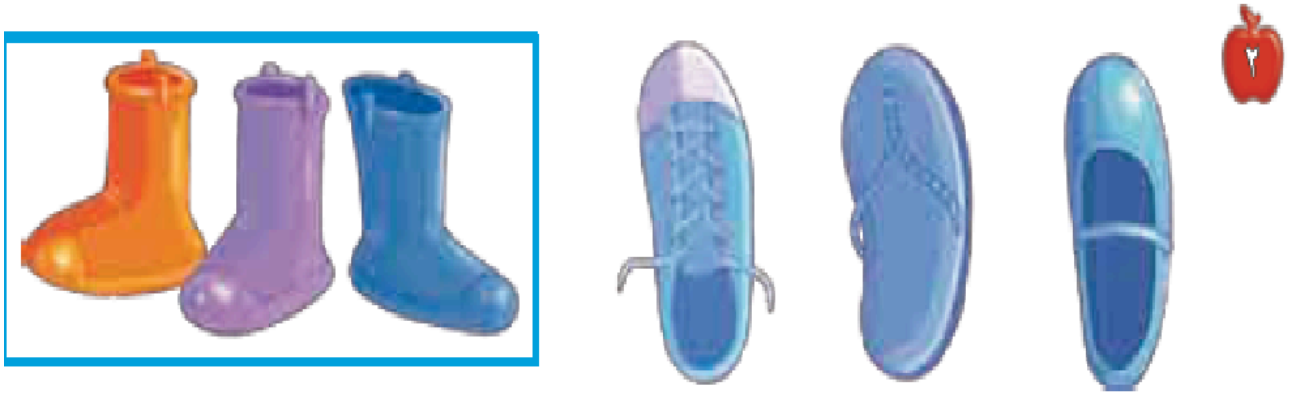

٣



المادة / رياضيات
التاريخ / / 14

الصف : الأول
الحصة :

الموضوع / التصنيف وفق أكثر من خاصية

الاسم :

.....

أضع ◯ الشكل المماثل و علامة × حول الشكل المختلف

١

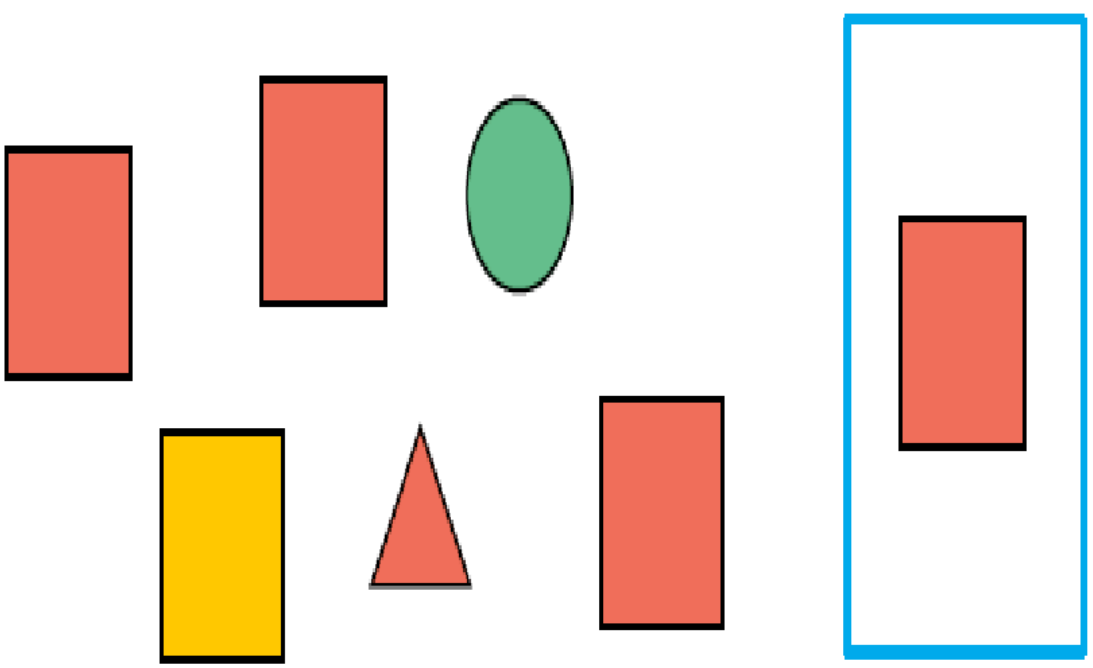

٢

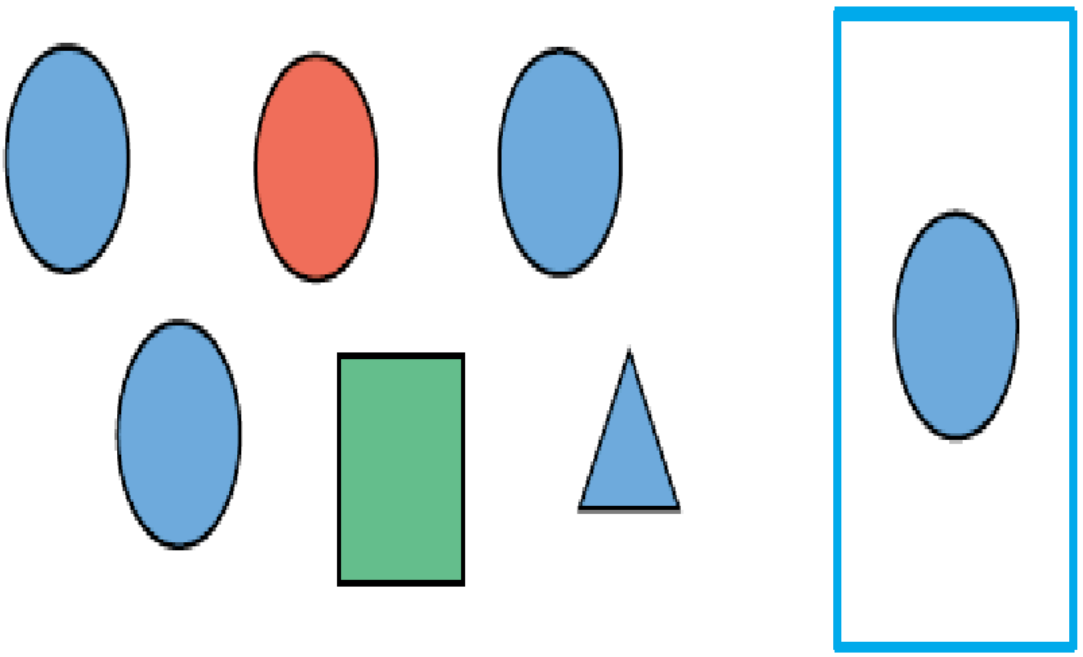

المادة / رياضيات
التاريخ / / 14

الصف : الأول
الحصة :

الموضوع / التصنيف وفق أكثر من خاصية

الاسم :

.....

أصل بخط بين عناصر المجموعتين المتقابلتين

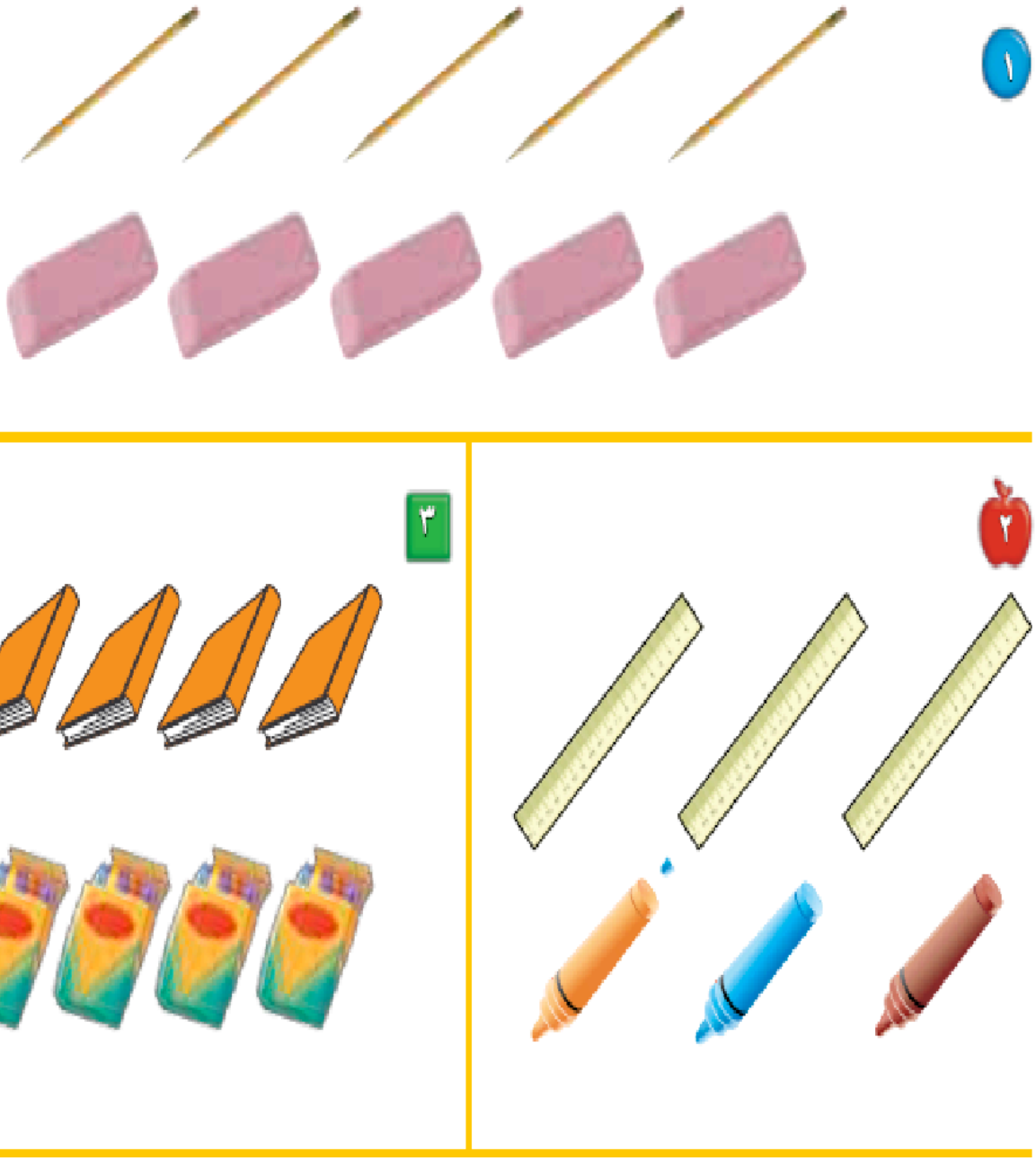

المادة / رياضيات
التاريخ / / 14

الصف : الأول
الحصة :

الموضوع / التصنيف (أكثر من وأقل من)

الاسم :

أصل بخط بين المجموعتين وضع حول المجموعة التى عناصرها أكثر



المادة / رياضيات
التاريخ / / 14

الصف : الأول
الحصة :

الموضوع / الأعداد 1 ، 2 ، 3 .

الاسم : .....

أعد المربعات ثم ألونـها



المادة / رياضيات
التاريخ / / 14

الصف : الأول
الحصة :

الموضوع / قراءة الأعداد (1 ، 2 ، 3) **الاسم :**

أعد الأشياء وانطق العدد ثم اكتبه ثلاث مرات

٤

١		
واحِـدٌ		

٥

٣		
ثَلاثَـةٌ		

٦

٢		
اثْنـانِ		

٧



٨



المادة / رياضيات
التاريخ / / 14

الصف : الأول
الحصة :

الموضوع / العددان 4 ، 5

الاسم :

.....

ارسم 4 تفاحات على الشجرة الأولى و 5 تفاحات على الشجرة الثانية

١

٢

المادة / رياضيات
التاريخ / / 14

الصف : الأول
الحصة :

الموضوع / قراءة العددان 4 ، 5 وكتابتهما

الاسم :

.....

أعد الأشياء وانطق العدد ثم اكتب العدد ثلاث مرات

٣

٤ أَرْبَعَةٌ

٤

٥ خَمْسَةٌ

٥

٤ أَرْبَعَةٌ

٦

٧

المادة / رياضيات
التاريخ / / 14

الصف : الأول
الحصة :

الموضوع / قِراءَةُ الْعَدَدِ صِفْر, وكِتابَتُهُ

الاسم :

.....

أعد الكرات فى كل رسمة وعاء ثم قل العدد واكتبه

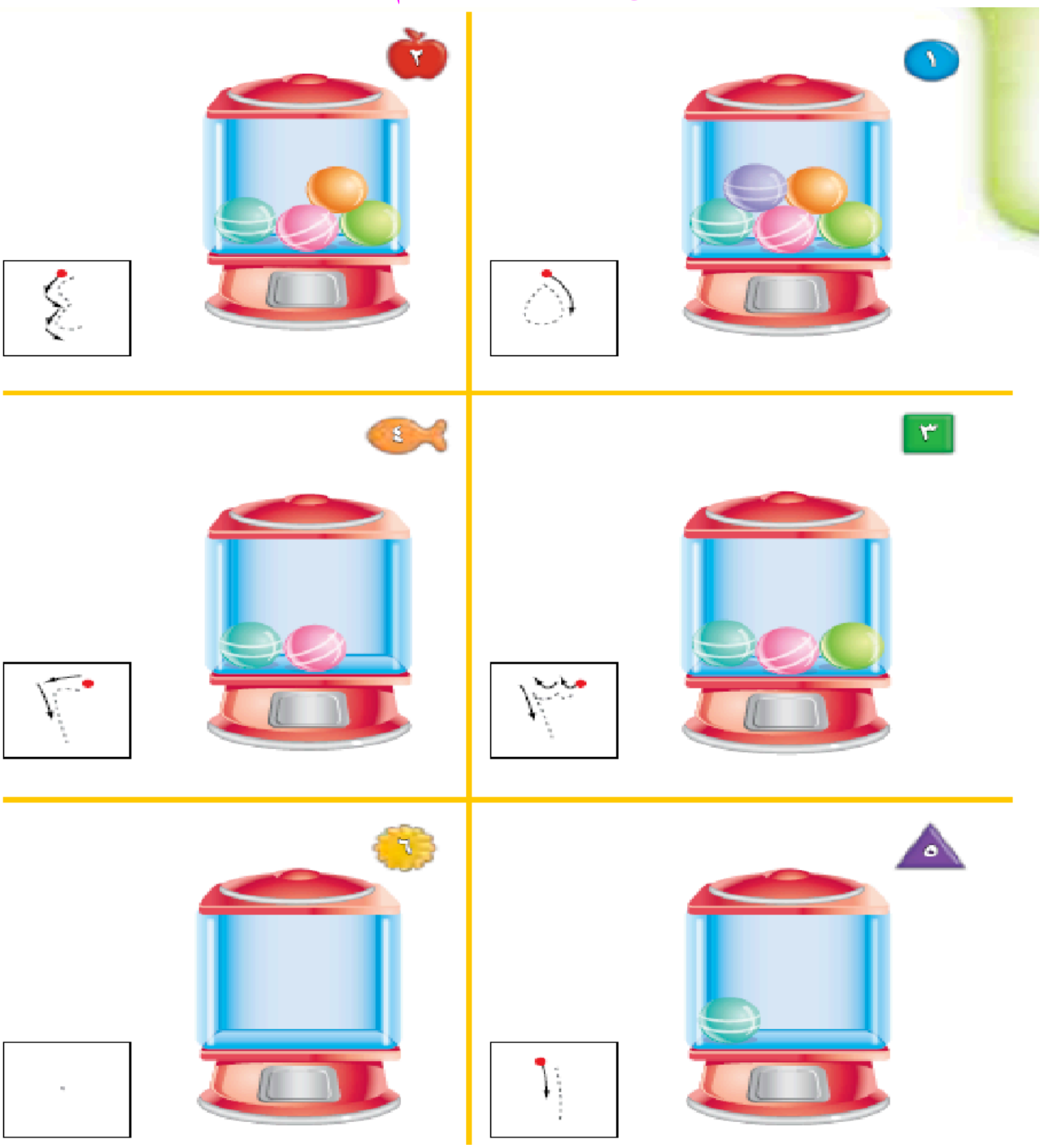

المادة / رياضيات
التاريخ / / 14

الصف : الأول
الحصة :

الموضوع/ الأَعْدادُ 6 ، 7 ، 8

الاسم :

.....

أعد الأشياء وقل العدد واستعمل قطع العد الملونة لتمثيل العدد

١

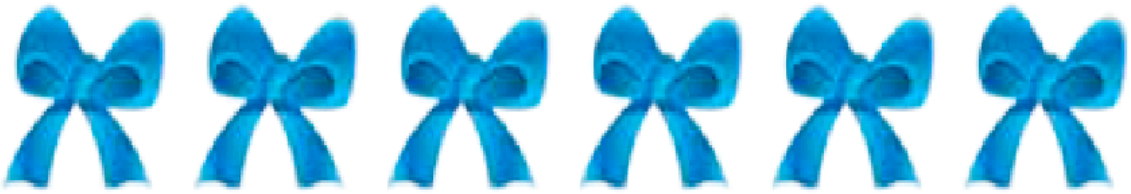

٢

٣

المادة / رياضيات
التاريخ / / 14

الصف : الأول
الحصة :

الموضوع/ قِراءَةُ الأَعْدادِ 6 ، 7 ، 8 وكِتابَتُها

الاسم :

.....

أعد الأشياء وقل العدد ووضح عددها

المادة / رياضيات
التاريخ / / 14

الصف : الأول
الحصة :

الموضوع / اَلْعَدَدانِ 9 ، 10

الاسم :

.....

أعد المجموعات ثم قل عددها ثم حوط المجموعة التى عدد عناصرها 9 باللون الأحمر والمجموعة التى عدد عناصرها 10 باللون الأزرق

١

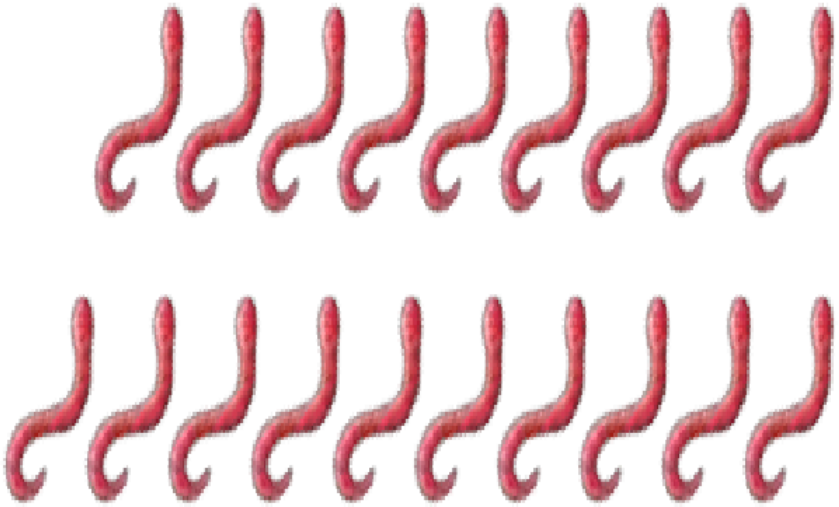

٢

المادة / رياضيات
التاريخ / / 14

الصف : الأول
الحصة :

الموضوع / **قراءة العددان 9 - 10**

الاسم :

.....

أعد الحيوانات وقل العدد ثم اكتب العدد فى المكان المخصص

٣

٤



٥

٦



المادة / رياضيات
التاريخ / / 14

الصف : الأول
الحصة :

الموضوع / مقارنة الأعداد حتى 10

الاسم :

أعد الأشياء فى كل مجموعة ثم اكتب عددها وضع × على المجموعة الأقل

١



٢



المادة / رياضيات
التاريخ / / 14

الصف : الأول
الحصة :

الموضوع / ترتيب الأعداد حتى 10

الاسم :

أعد الأشياء ثم مرر قلمك على الأعداد المنقطة واكتب الأعداد المفقودة

٣

٦		٨	٩

٤

٣	٤	٥	

٥

	٦		٨

٦

٢			

المادة / رياضيات　　الصف : الأول

التاريخ /　/　/　14　　الحصة :

الموضوع / العدد الترتيبى　　الاسم :

.....

اذكر ترتيب كل نسر وضع على النسر السادس و × على النسر الثالث

المادة / رياضيات
التاريخ / / 14

الصف : الأول
الحصة :

الموضوع / الفصل الثالث (الأعداد حتى 20)

الاسم :

.....

.....

أعد الجزرات وحبات الفلفل واكتب عددها

١



٢

المادة / رياضيات
التاريخ / / 14

الصف : الأول
الحصة :

الموضوع / العددان 11 ، 12

الاسم :

أعد الأشياء وانطق العدد ومرر قلمك على العدد المنقط واكتبيه

١



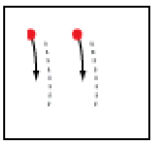

٢

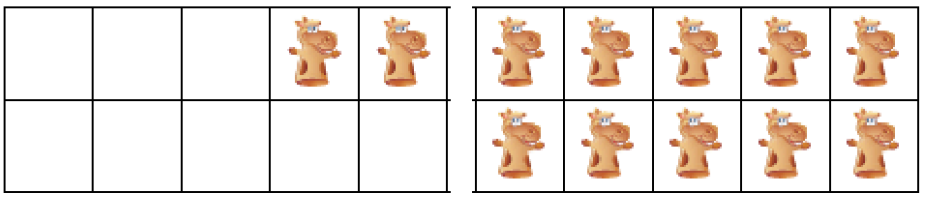

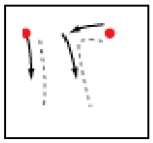

المادة / رياضيات
التاريخ / / 14

الصف : الأول
الحصة :

الموضوع /الأعداد 13 ، 14 ، 15

الاسم :

.....

أعد الأشياء وانطق العدد ومرر قلمك على العدد المنقط واكتبيه

٢



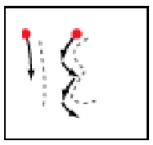

٣



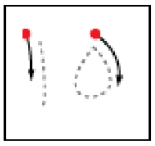

المادة / رياضيات
التاريخ / / 14

الصف : الأول
الحصة :

الموضوع / العددان 16 ـ 17

الاسم :

أعد الكرات وانطق العدد ثم مرر قلمك على العدد المنقط واكتب العدد

١

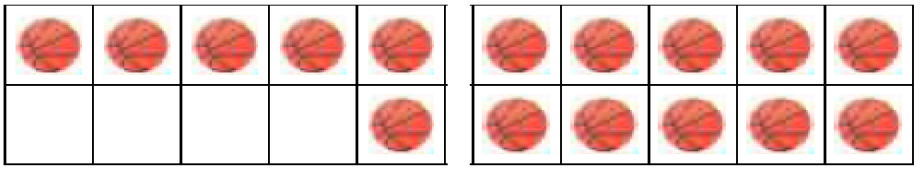

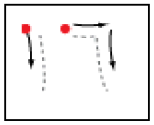

٢



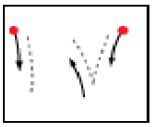

المادة / رياضيات
التاريخ / / 14

الصف : الأول
الحصة :

الموضوع / أبحث عن نمط

الاسم :

أعد الريش ثم اكتب العدد وحدد النمط



المادة / رياضيات
التاريخ / / 14

الصف : الأول
الحصة :

الموضوع / الأعداد 18 ، 19 ، 20

الاسم :

أعد الأشياء واكتب العدد ومرر قلمك على العدد المنقط واكتبه

١



٢



٣



المادة / رياضيات
التاريخ / / 14

الصف : الأول
الحصة :

الموضوع / مقارنة الأعداد حتى 20

الاسم :

أعد الأشياء فى كل طبق واكتب عددها وضعى × على العدد الذى يمثل المجموعة الأكبر



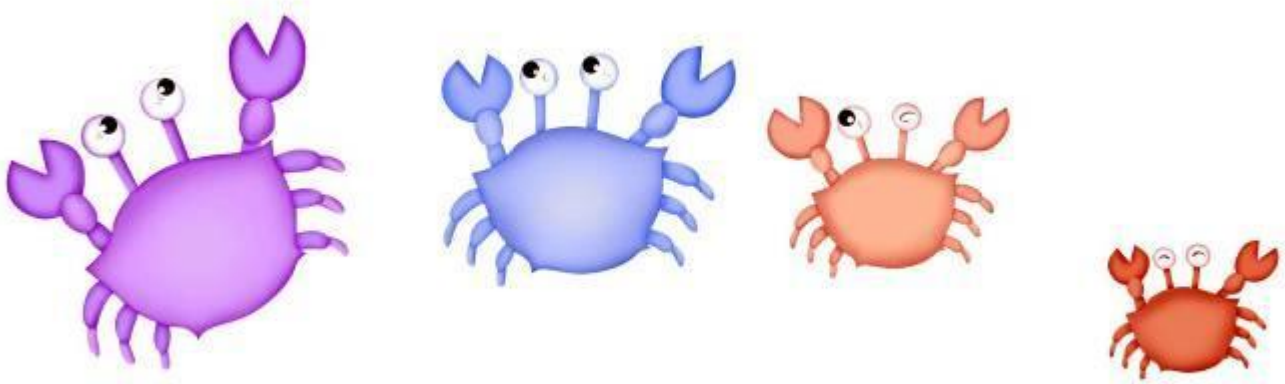

المادة / رياضيات
التاريخ / / 14

الصف : الأول
الحصة :

الموضـــــوع / ترتيب العدد حتى 20 .

الاسم :

.....

أكتب العدد المفقود فى الفراغ

المادة / رياضيات
التاريخ / / 14

الصف : الأول
الحصة :

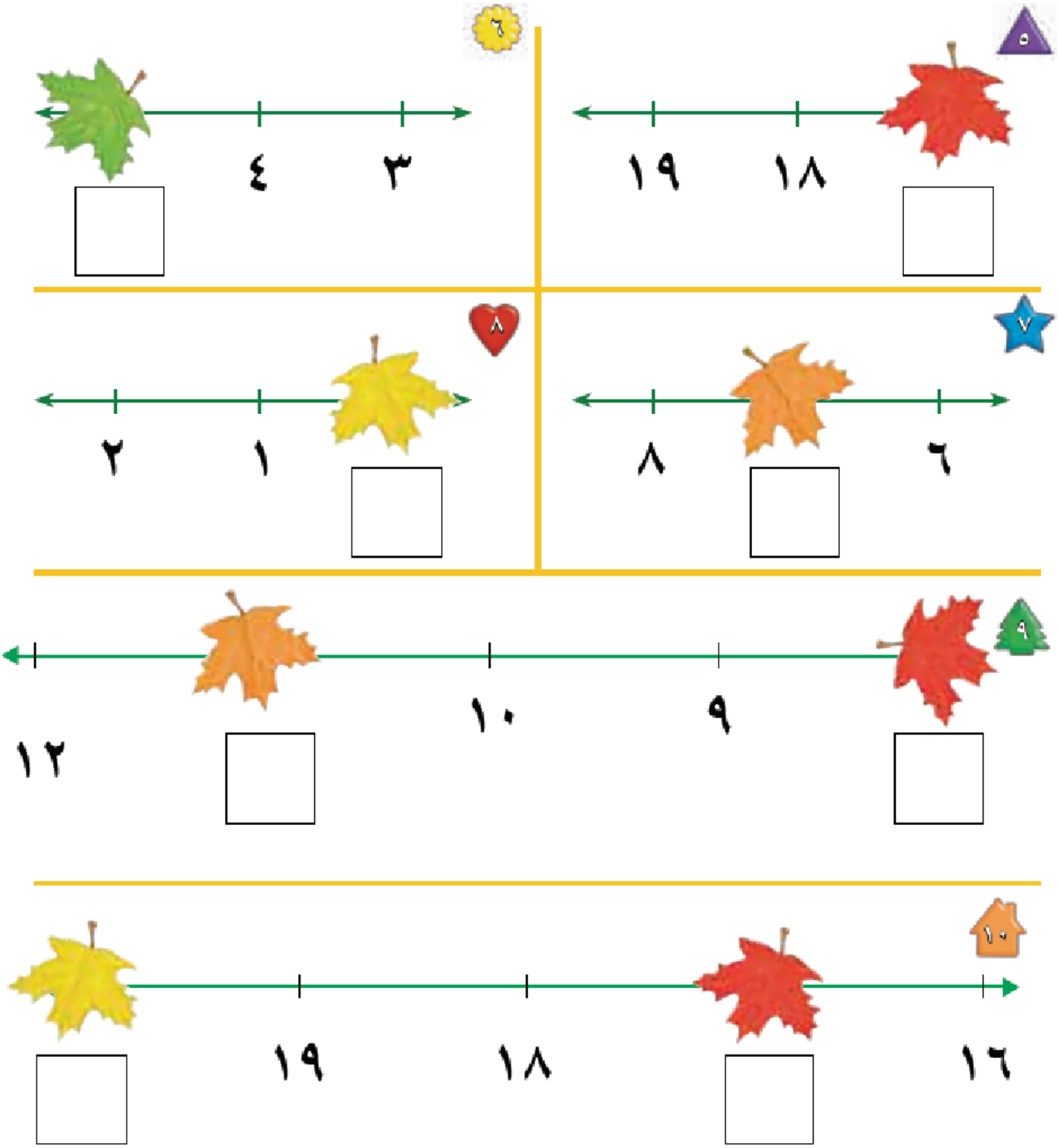

الموضوع / الفصل الرابع (الجمع)

الاسم :

ألاحظ الصورة واكتب عدد التفاحات

المادة / رياضيات
التاريخ / / 14

الصف : الأول
الحصة :

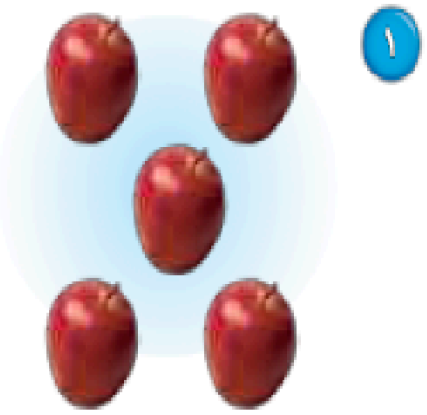

_____



_____

الموضوع / قصص الجمع

الاسم :

المادة / رياضيات
التاريخ / / 14

الصف : الأول
الحصة :

احكي قصة عددية مستعملاً قطع العدد واكتب عدد الحيوانات

٣

_____ ثَعالِبَ

٤

_____ غَزالاً

٥

_____ فَرَاشَةً

الموضوع / تمثيل الجمع

الاسم :

المادة / رياضيات
التاريخ / / 14

الصف : الأول
الحصة :

استعمل ورقة العمل 3 وقطع العد لإيجاد (الكل) المجموع

٥

جُزْءٌ	جُزْءٌ
٣	٢
الكُل	

٦

جُزْءٌ	جُزْءٌ
٤	٥
الكُل	

٧

جُزْءٌ	جُزْءٌ
٥	٢
الكُل	

٨

جُزْءٌ	جُزْءٌ
٥	٥
الكُل	

٩

جُزْءٌ	جُزْءٌ
١	٣
الكُل	

١٠

جُزْءٌ	جُزْءٌ
٤	٢
الكُل	

١١

جُزْءٌ	جُزْءٌ
١	٢
الكُل	

١٢

جُزْءٌ	جُزْءٌ
٣	٣
الكُل	

الموضوع / جمل الجمع

الاسم :

المادة / رياضيات
التاريخ / / 14

الصف : الأول
الحصة :

استعمل المكعبات لتمثيل جملة الجمع واكتبها

٥

____ = ____ + ____

٦

____ = ____ + ____

٧



____ = ____ + ____

٨

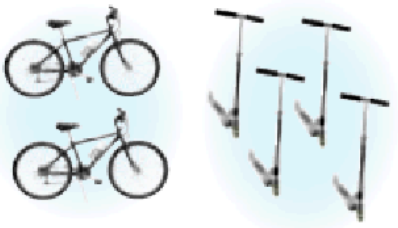

____ = ____ + ____

٩



____ = ____ + ____

١٠

____ = ____ + ____

الموضوع / جمع الصفر

الاسم :

المادة / رياضيات
التاريخ / / 14

الصف : الأول
الحصة :

اكتب ناتج الجمع

١



٥ + ٠ = ____

٢

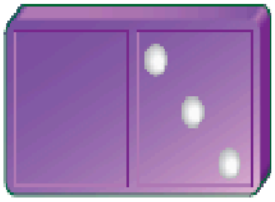

٣ + ٠ = ____

٣



٦ + ٠ = ____

٤

٠ + ١ = ____

٥

٧ + ٠ = ____

٦

٠ + ٨ = ____

٧

٣ + ٣ = ____

٨

٢ + ١ = ____

الموضوع / أحل المسالة

الاسم :

المادة / رياضيات
التاريخ / / 14

الصف : الأول
الحصة :

مثل قصص الجمع لإيجاد الناتج

١

_____ + _____ = _____

٢

_____ + _____ = _____

٣

_____ + _____ = _____

الموضوع / تكوين الأعداد 4، 5 ، 6

الاسم :

المادة / رياضيات
التاريخ / / 14

الصف : الأول
الحصة :

استعمل قطع العد الكرة الحمراء والصفراء وضعهما فى مجموعتين لتكوين العدد 4 ثم لون واكتب الأعداد

تَكْوِينُ الْعَدَد ٤				
	زائِد		يُسَاوِي	النّاتِج
١	+	٣	=	٤
___	+	___	=	٤
___	+	___	=	٤

١
٢
٣

المادة / رياضيات
التاريخ / / 14

الصف : الأول
الحصة :

الموضوع / تكوين الأعداد 7 ، 8 ، 9

الاسم :

استعمل قطع العد الكرة الحمراء والصفراء وضعهما فى مجموعتين لتكوين العددان 8 ، 9 ثم لون واكتب الأعداد

	تكْوِينُ الْعَدَد ٨				
	زائِد		يُسَاوِي		النّاتج
٦	___	+	___	=	٨
٧	___	+	___	=	٨
٨	___	+	___	=	٨
٩	___	+	___	=	٨
١٠	___	+	___	=	٨
١١	___	+	___	=	٨
١٢	___	+	___	=	٨

	تكْوِينُ الْعَدَد ٩				
	زائِد		يُسَاوِي		النّاتج
١٣	___	+	___	=	٩
١٤	___	+	___	=	٩
١٥	___	+	___	=	٩
١٦	___	+	___	=	٩
١٧	___	+	___	=	٩
١٨	___	+	___	=	٩
١٩	___	+	___	=	٩

المادة / رياضيات
التاريخ / / 14

الصف : الأول
الحصة :

الموضوع / تكوين الأعداد 10 ، 11 ، 12

الاسم :

استعمل قطع العد الكرة الحمراء والصفراء ثم ارسم دوائر واكتب العدد

١

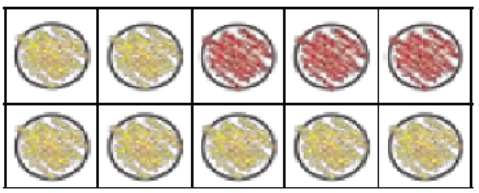

___ + ___ = ١٠

٢

___ + ___ = ١٠

٣

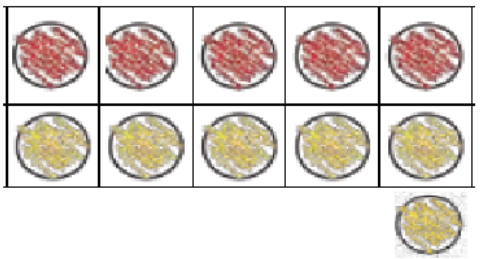

___ + ___ = ١١

٤

___ + ___ = ١١

٥

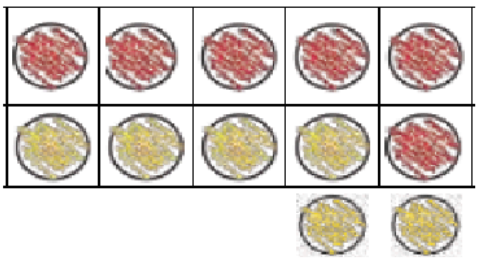

___ + ___ = ١٢

٦

___ + ___ = ١٢

٧

___ + ___ = ١١

٨

___ + ___ = ١٢

المادة / رياضيات
التاريخ / / 14

الصف : الأول
الحصة :

الموضوع / الجمع الرأسي

الاسم :

اكتب الأعداد ثم أوجد الناتج

١



___ = ___ + ___

٢



□
□ +
———
□

٣



___ = ___ + ___

٤



□
□ +
———
□