اختبار الوحدة الثامنة

الاسم : ---------- الصف : -

الثاني/----------

تعليمات اختر الإجابة الصحيحة لكل من الأسئلة من 1 إلى 5 ، وذلك بوضع علامة × داخل المربع المجاور للإجابة الصحيحة:

السؤال رقم (1)			

ما العدد الذ تمثله النماذج ؟



- A 300
- B 500
- C 700

السؤال رقم (2)			

ما العدد الذي يمثله النموذج امامك ؟

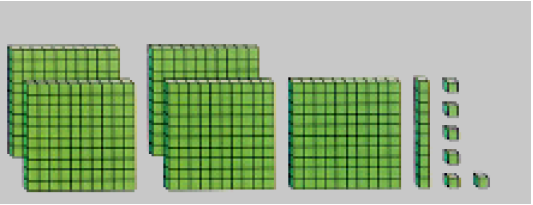

- A 425
- B 516
- C 615

السؤال رقم (3)			

ما قيمة الرقم 3 في العدد 638 ؟

- A 3
- B 30
- C 300

			السؤال رقم (4)

ما العدد الناقص في لوحة الاعداد امامك ؟

535	536	537	538		540

A 539

B 536

C 534

			السؤال رقم (5)

اكتب العدد بالصيغة التحليلية ، ثم اكتبه بالصيغة القياسية :

1



..... + ... + ...

2

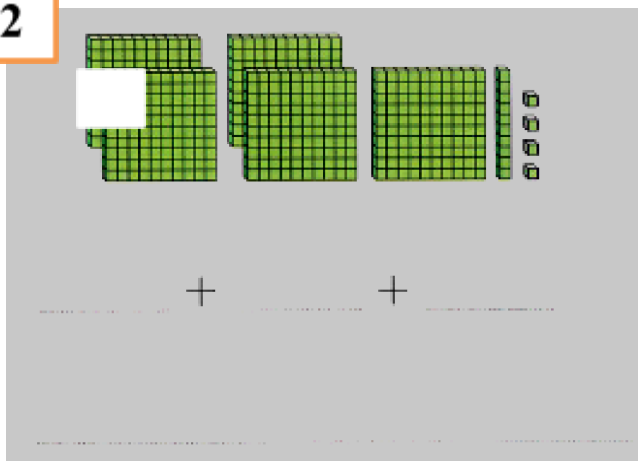

..... + ... + ...

السؤال رقم (6)			

قارن بين الاعداد التي امامك بكتابة (> او< او =)

1. 341 ◯ 432 2. 990 ◯ 290 3. 621 ◯ 639

4. 890 ◯ 880 5. 546 ◯ 546 6. 999 ◯ 995

السؤال رقم (7)			

1

اكتب العدد بالصيغة التحليلية ، ثم اكتبه بالصيغة القياسية :

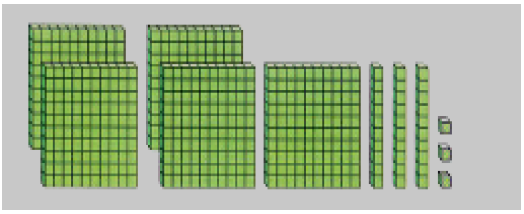

..... + ... + ...

.....

2

قارن بين الأعداد التي امامك بكتابة (> او< او =)

347 ◯ 437